ชื่อ.....ชั้น.....เลขที่.....

ใบงาน เรื่อง พื้นที่รูปสี่เหลี่ยม

คำชี้แจง : ให้นักเรียนเติมคำตอบลงในช่องว่างให้ถูกต้อง

ข้อ	รูป	ความสูง	ฐาน	พื้นที่
1	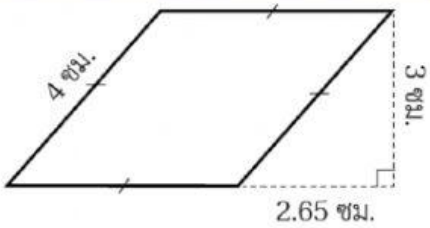			
2	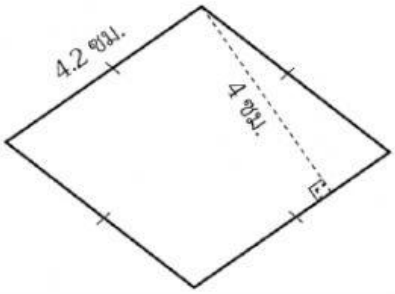			
3	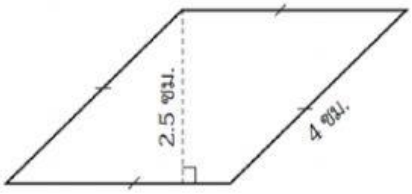			
4	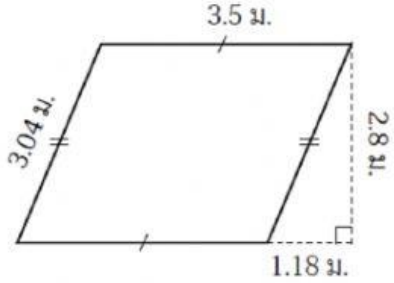			
5	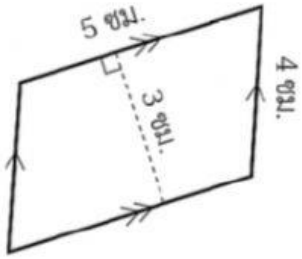			

LIVEWORKSHEETS