Luyện tập **1** Số ?

a)

Thừa số	5	5	5	5	5	5	5	5
Thừa số	3	5	7	9	2	4	6	8
Tích	15							

b)

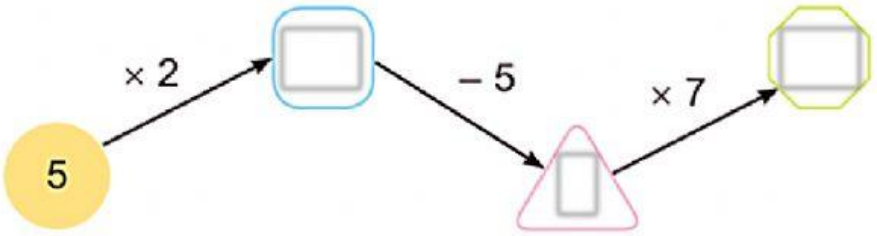

LIVEWORKSHEETS

luyện tập

2 Đếm thêm 5 rồi nêu số còn thiếu.

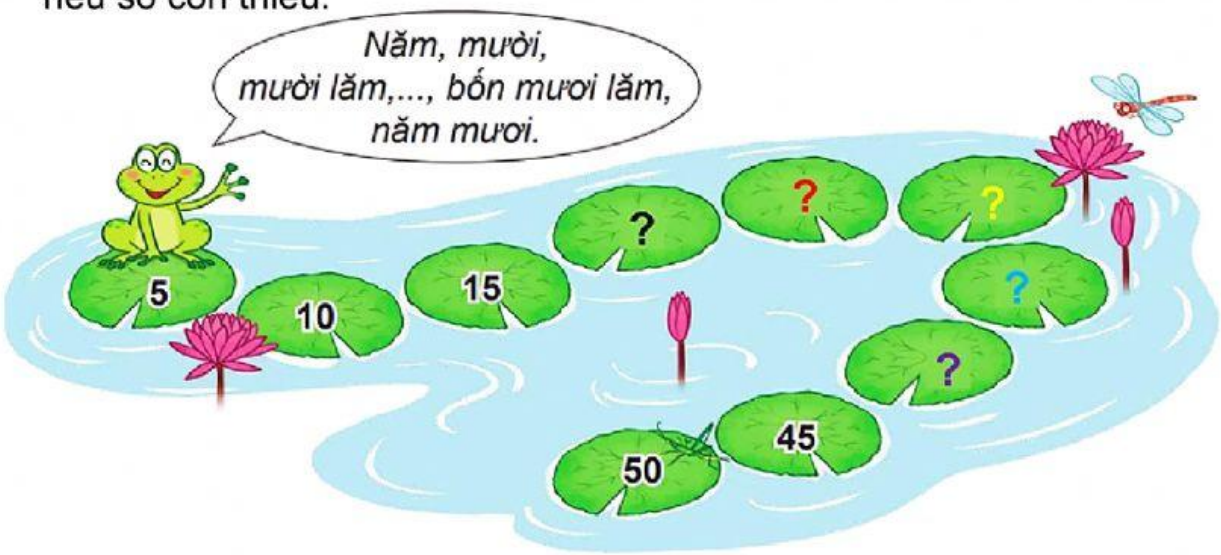

LIVEWORKSHEETS

Luyện tập

3

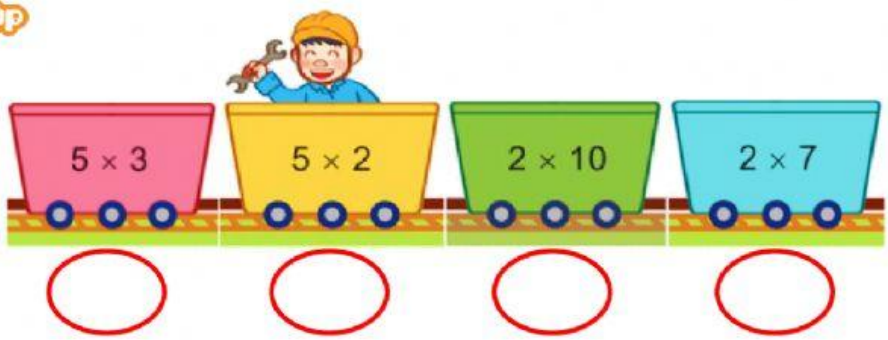

a) Toa tàu nào ghi phép tính có kết quả lớn nhất?

b) Toa tàu nào ghi phép tính có kết quả bé nhất?

LIVEWORKSHEETS