Resolución de Problemas

Haz las cuentas que necesites en tu cuaderno.

1 ¿Cuántas galletas de chocolate hay más que de nata?

333

221



Hay ☐ galletas de chocolate.

Hay ☐ galletas de nata. ☐ ◯ ☐ = ☐

▶ Hay ☐ galletas de chocolate más que de nata.

2 ¿Cuántas galletas de nata hay menos que de chocolate?

416

304



Hay ☐ galletas de chocolate.

Hay ☐ galletas de nata. ☐ ◯ ☐ = ☐

▶ Hay ☐ galletas de nata menos que de chocolate.

LIVEWORKSHEETS

3 ¿Cuántas galletas de nata hay más que de chocolate?

513

202



Hay ☐ galletas de nata.

Hay ☐ galletas de chocolate. ☐ ◯ ☐ = ☐

▶ Hay ☐ galletas de nata más que de chocolate.

4 ¿Cuántas galletas de chocolate hay menos que de nata?

434

114

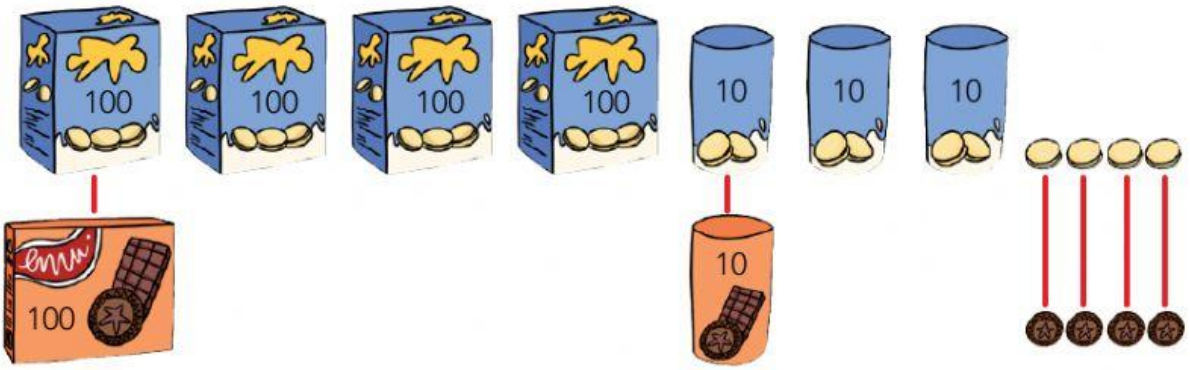

Hay ☐ galletas de nata.

Hay ☐ galletas de chocolate. ☐ ◯ ☐ = ☐

▶ Hay ☐ galletas de chocolate menos que de nata.

LIVEWORKSHEETS