SAUSIO MĖNESIO TESTAS

1. Apskaičiuok ir šalia parašyk reikšmei tinkančią raidę. Atlikęs užduotį, sužinosi, kaip kitaip vadinami atgimimo laikai. Užrašyk gautąjį žodį.

R	S	E	N	A
385	566	787	1895	3889

$-\begin{array}{r}553\\168\\\hline\end{array}$ $-\begin{array}{r}1786\\999\\\hline\end{array}$ $-\begin{array}{r}2548\\653\\\hline\end{array}$ $+\begin{array}{r}449\\338\\\hline\end{array}$ $-\begin{array}{r}842\\276\\\hline\end{array}$

$-\begin{array}{r}6178\\2289\\\hline\end{array}$ $-\begin{array}{r}2178\\283\\\hline\end{array}$ $-\begin{array}{r}731\\165\\\hline\end{array}$ $+\begin{array}{r}1967\\1922\\\hline\end{array}$ $+\begin{array}{r}187\\379\\\hline\end{array}$

2. Suskaičiuok ir pagal gautas reikšmes sujunk religijos pavadinimą su pavaizduota šventykla.

$+\begin{array}{r}24{,}59\\13{,}87\\\hline\end{array}$ $+\begin{array}{r}27{,}70\\15{,}46\\\hline\end{array}$ $+\begin{array}{r}18{,}35\\19{,}78\\\hline\end{array}$ $-\begin{array}{r}62{,}13\\24{,}19\\\hline\end{array}$ $-\begin{array}{r}71{,}42\\35{,}58\\\hline\end{array}$

Budistų šventykla | Hinduistų šventykla | Musulmonų mečetė | Judėjų (žydų) sinagoga | Krikščionių bažnyčia




35,84 | 38,13 | 38,46 | 43,16 | 37,94

3. Suskaičiuok

$+\begin{array}{r}3\text{ km }45\text{ m}\\12\text{ km }936\text{ m}\\\hline\end{array}$ $+\begin{array}{r}3\text{ h }55\text{ min}\\4\text{ h }35\text{ min}\\\hline\end{array}$ $+\begin{array}{r}14\text{ m }3\text{ dm}\\17\text{ m }8\text{ dm}\\\hline\end{array}$ $+\begin{array}{r}45\text{ eur }39\text{ ct}\\9\text{ eur }76\text{ ct}\\\hline\end{array}$

4. Apskaičiuok reiškinių reikšmes

270 + 30 : 3 – 56 = 269 + 4 * (32 + 8) = 485 – 45 : 9 * (64 : 8) =

LIVEWORKSHEETS

5.

Susmulkink arba sustambink.

3 Eur 25 ct = ... ct 705 ct = ... Eur ..... ct

1 h 35 min = ... min 92 mm = ...cm ..... mm

5 m 2 cm = ... cm 76 cm = ... dm ..... cm

6. Išspręsk lygtis

2002 – x = 139 x * 8 = 56 x : 9 = 8 156 + x = 413

6 * x = 480 360 : x = 90 x – 804 = 316 x + 685 = 1000

7. Duotus skaičius užrašyk dešimtaine trupmena

2 eur 25 ct = …… eur 14 kg 562 g = …… kg 16 cm 3 mm = …… cm

14 km 36 m = ……..km 45 eur 9 ct = …… eur 78 l 4 ml = …… l

8. Apskaičiuok figūrų **perimetrus**. Kiekvieno kvadratėlio perimetras yra 12 cm.

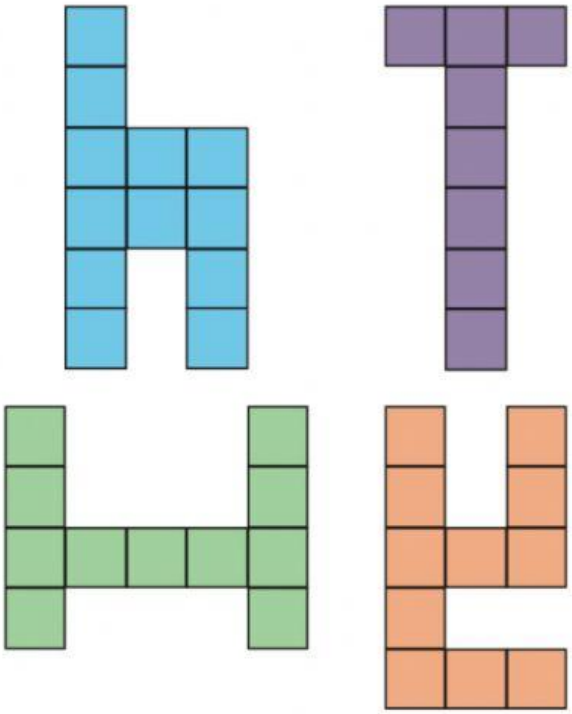

Žydra figūra

Violetinė figūra

Žalia figūra

Ruda figūra

Apskaičiuok žalios figūros **plotą**

LIVEWORKSHEETS