Bài 1: Viết rồi đọc phân số chỉ phần đã tô màu trong mỗi hình dưới đây:

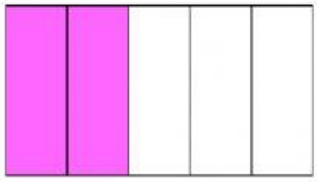

Hình 1

Viết: —

Đọc:……..

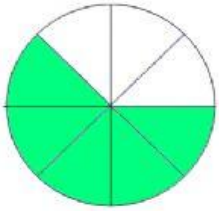

Hình 2

Viết: —

Đọc: ……..

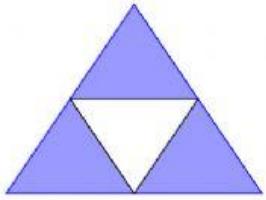

Hình 3

Viết: —

Đọc: ……..

LIVEWORKSHEETS

Bài 1: Viết rồi đọc phân số chỉ phần đã tô màu trong mỗi hình dưới đây:

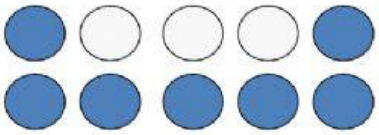

Hình 4

Viết: —

Đọc:……..

Hình 5

Viết: —

Đọc: ……..

Hình 6

Viết: —

Đọc: ……..

LIVEWORKSHEETS

Bài 2: Viết theo mẫu:

Phân số	Tử số	Mẫu số
$\frac{6}{11}$	6	11
$\frac{8}{10}$		
$\frac{5}{12}$		

Phân số	Tử số	Mẫu số
___	3	8
$\frac{18}{25}$		
___	12	55

LIVEWORKSHEETS