Toán

Ms.Anh 5.3

EduFive
LIVEWORKSHEETS

a) Hình tam giác

Hình tam giác ABC có:

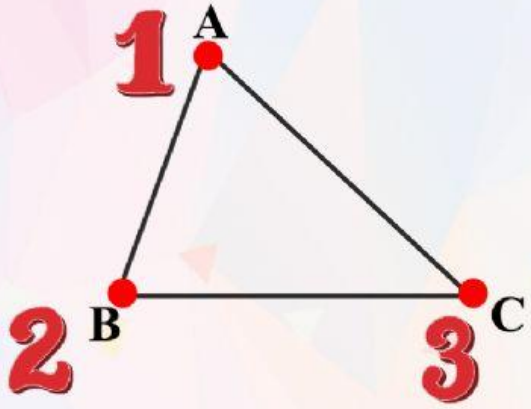

Ba đỉnh là:

- Đỉnh …
- Đỉnh …
- Đỉnh …

LIVEWORKSHEETS

a) Hình tam giác

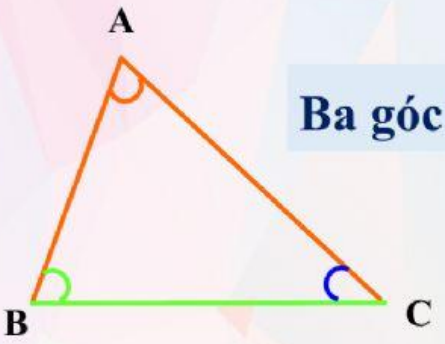

Ba góc là:

Hình tam giác ABC có:

Góc đỉnh A, cạnh … và …
(gọi tắt là góc A);

Góc đỉnh B, cạnh … và …
(gọi tắt là góc B);

Góc đỉnh …, cạnh … và ...
(gọi tắt là góc C).

LIVEWORKSHEETS

Chỉ ra đường cao của các hình tam giác sau:

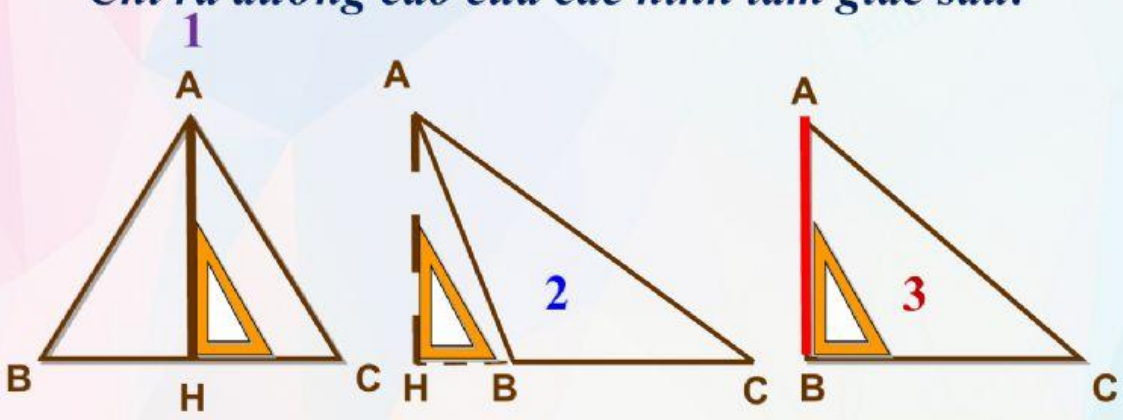

... là đường cao ứng với đáy BC

AH là đường cao ứng với đáy ...

... là đường cao ứng với đáy BC

LIVEWORKSHEETS

Bài 1: Viết tên *ba góc* và *ba cạnh* của mỗi hình tam giác dưới đây:

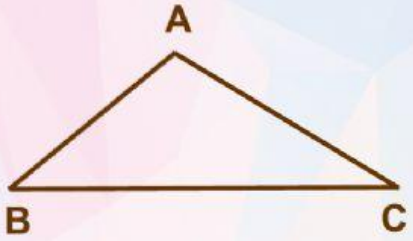

Hình tam giác ABC có :

- Ba góc là góc …, góc …, góc ….
- Ba cạnh là cạnh …, cạnh …, cạnh ...

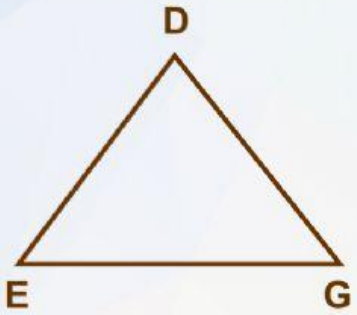

Hình tam giác DEG có:

- Ba góc là góc …, góc …, góc …
- Ba cạnh là cạnh …, cạnh …, cạnh …

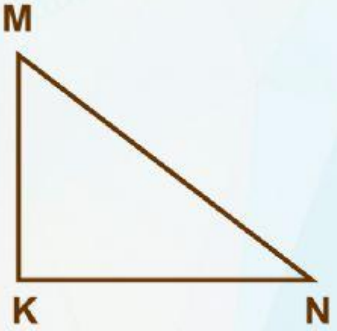

Hình tam giác MKN có:

- Ba góc là góc …, góc …, góc …
- Ba cạnh là cạnh …, cạnh …, cạnh …

LIVEWORKSHEETS

Bài 2: Hãy chỉ ra đáy và đường cao tương ứng được vẽ trong mỗi hình tam giác dưới đây:

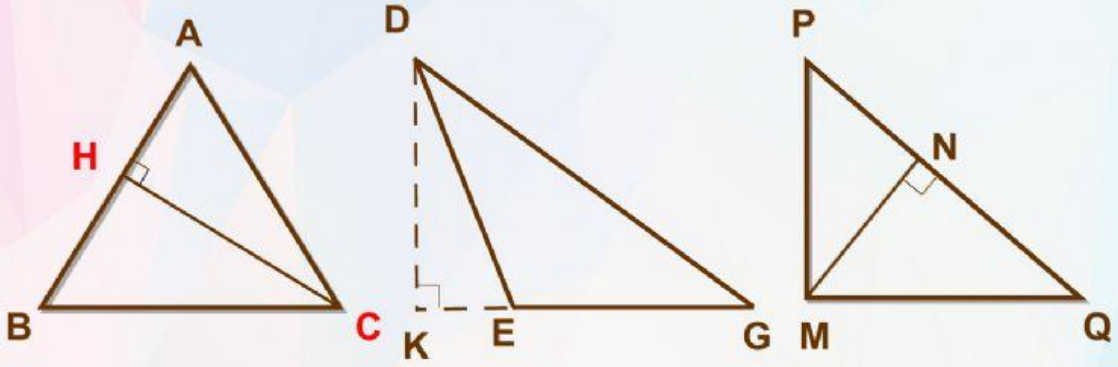

… là đường cao ứng với đáy AB	… là đường cao ứng với đáy EG	MN là đường cao ứng với đáy ...

LIVEWORKSHEETS