YAYASAN AL FARASY DZAKIYYA

BANDUNG ISLAMIC SCHOOL

Nomor Pokok Sekolah Nasional (NPSN) : 69971730

No. WS:

03

NAMA	**: .....**	**MAPEL**	**: Matematika (3.3)**
KELAS	**: 3**	**MATERI**	**: Simetri Lipat**
TANGGAL	**: .....Jumadats Tsaniyyah 1443 H**	**NILAI**	**:**
	:.....Januari 2022		

Ucapkanlah basmalah dan doa! Semoga Allah *Azza wa Jalla* memudahkanmu dalam menjawab soal.

Kamu telah mempelajari bahasan tentang simetri putar, jawablah pertanyaan berikut dengan benar!

Perhatikan gambar berbagai bangun datar berikut!

1. 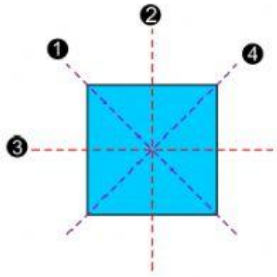

Nama dari bangun di samping adalah...

Ada berapakah jumlah simetri lipat pada bangun tersebut?

2. 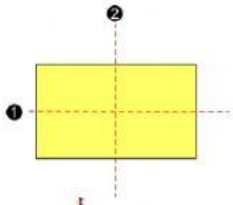

Persegipanjang di samping memiliki simetri lipat sebanyak....

3. 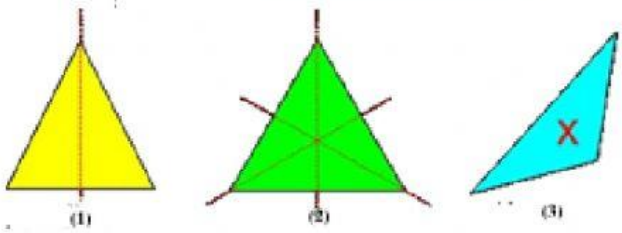

Gambar (1) adalah segitiga sama kaki memiliki ____ simetri lipat, gambar (2) adalah segitiga sama sisi memiliki ____ simetri lipat dan gambar (3) adalah segitiga sembarang memiliki ____ Simetri lipat.

LIVEWORKSHEETS LIVEWORKSHEETS

4. Tentukanlah jumlah simetri lipat dari bangun datar di bawah ini!

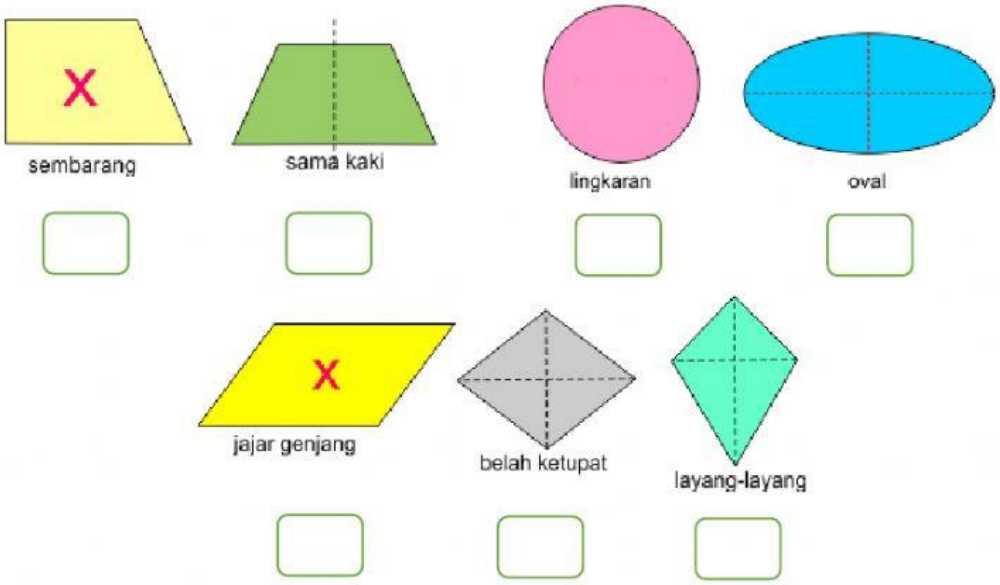

Pesan / Nasihat : Bertawakkal kepada Allah *Azza wa Jalla* usai mengerjakan soal dan terus semangat untuk bersegera dalam kebaikan!

LIVEWORKSHEETS
LIVEWORKSHEETS