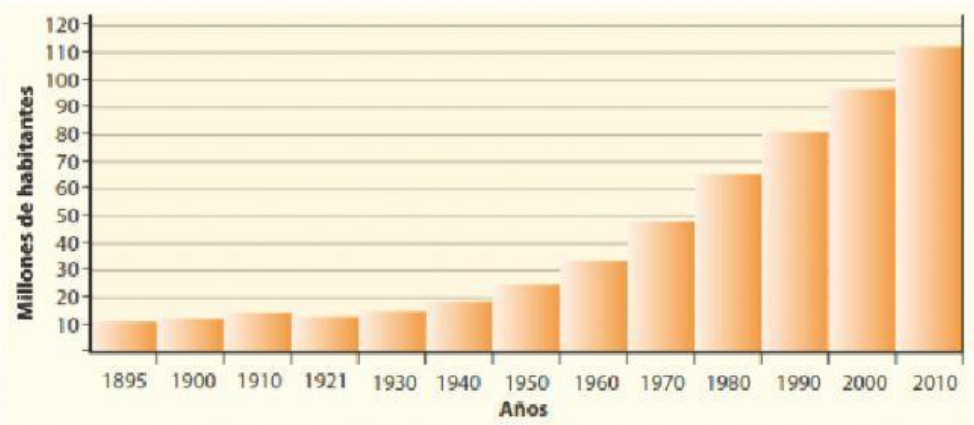

Crecimiento de la población de México.

Años	Población	% de crecimiento
1895	12 632 400	1.5
1900	13 607 300	1.0
1910	15 160 400	0.5
1921	14 334 800	-1.1
1930	16 552 700	1.7
1940	19 653 600	2.7
1950	25 791 000	2.7
1960	34 923 100	3.1
1970	48 225 200	3.4
1980	66 846 800	2.7
1990	81 249 600	2.3
2000	97 483 442	2.3
2010	112 336 538	1.4

ANALIZA LA INFORMACIÓN ANTERIOR Y RESPONDE.

1. ¿En cuál década disminuyó la población y por qué?

2. ¿Por qué en otras décadas se aceleró?

3. ¿A qué se debió que disminuyera el porcentaje de crecimiento de la población?

4. ¿Por qué es conveniente que sea baja la tasa de crecimiento?

5. ¿Qué problemas representa un acelerado crecimiento?

COLOCA EL NOMBRE QUE CORRESPONDA AL TIPO DE GRÁFICA.

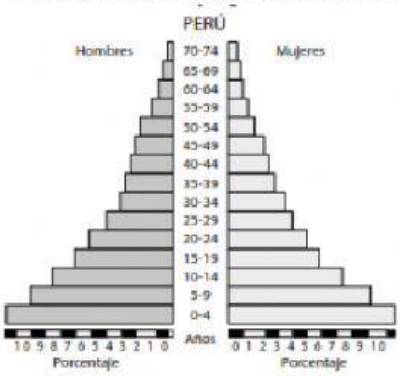

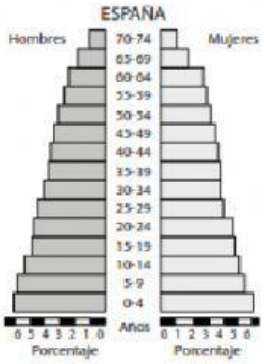

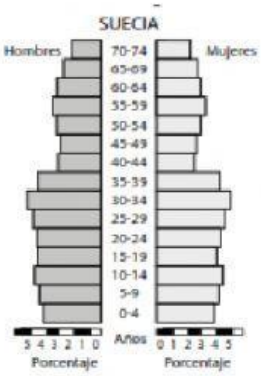

Población estable **Población progresiva** **Población regresiva**

LIVEWORKSHEETS