Examen Matemáticas Tema 10

ANAYA

10 Nombre y apellidos:

Fecha:

Matemáticas 1.º

Ficha 1

1 Escribe los nombres de estos números.

9.º → _____

6.º → _____

2.º → _____

8.º → _____

5.º → _____

3.º → _____

7.º → _____

1.º → _____

4.º → _____

10.º → _____

2 De izquierda a derecha, rodea y escribe el valor de la moneda que se indica en cada caso.

La sexta: ☐ _____

La octava: ☐ _____

La tercera: ☐ _____

10 Nombre y apellidos:

Fecha: Matemáticas 1.º

Ficha 2

1 Suma.

21 14 + 33 ☐	10 26 + 42 ☐	13 5 + 51 ☐	52 17 + 20 ☐
31 35 + 22 ☐	44 12 + 33 ☐	3 66 + 30 ☐	72 13 + 4 ☐
○ 24 35 + 23 ☐	○ 75 5 + 14 ☐	○ 63 17 + 16 ☐	○ 19 42 + 25 ☐
○ 58 26 + 12 ☐	○ 45 42 + 9 ☐	○ 37 25 + 13 ☐	○ 26 34 + 16 ☐

10 Nombre y apellidos:

Fecha:

Matemáticas 1.º

Ficha 3

1 Escribe el dinero que hay en cada caja y calcula.

CAJA A

euros

CAJA B



euros

CAJA C

euros

CAJA D



euros

CAJAS A + B + C	CAJAS B + C + D	CAJAS A + B + D	CAJAS A + C + D

10 Nombre y apellidos:

Fecha:

Matemáticas 1.º

Ficha 4

1 Calcula cuánto cuesta la compra en cada caso.

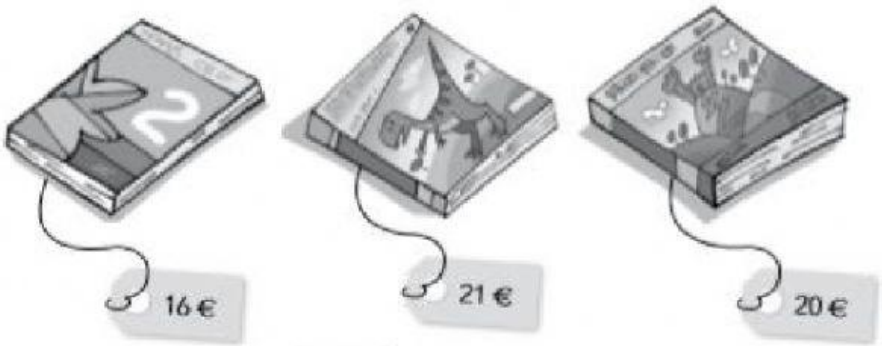

▶ En total cuestan ☐ euros.

▶ En total cuestan ☐ euros.



▶ En total cuestan ☐ euros.