Colegio "SANTO DOMINGO DE GUZMÁN" Huachipa

EMBAJADORES DEL DEPORTE, FOLKLORE Y CULTURA

"Nacimos para ser el Orgullo del Perú"

Mis Ana Marca Lucero

FRACCIONES Y CLASES DE FRACCIONES

1. **Completa el cuadro y marca la fracción que se formo:**

Gráfico	Numerador	Denominador	Fracción
			$\frac{6}{8}$ $\frac{8}{6}$
			$\frac{10}{5}$ $\frac{5}{10}$
			$\frac{2}{4}$ $\frac{4}{2}$
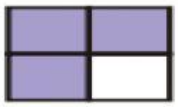			$\frac{4}{3}$ $\frac{3}{4}$

2. Relaciona la fracción con su lectura.

a) $\frac{3}{8}$

b) $\frac{6}{7}$

c) $\frac{1}{5}$

d) $\frac{7}{10}$

e) $\frac{2}{3}$

- Seis sétimos
- Un quinto
- Dos tercios
- Tres octavos
- Siete decimos

LIVEWORKSHEETS

3. Observa cada gráfico y escribe la fracción que representa.

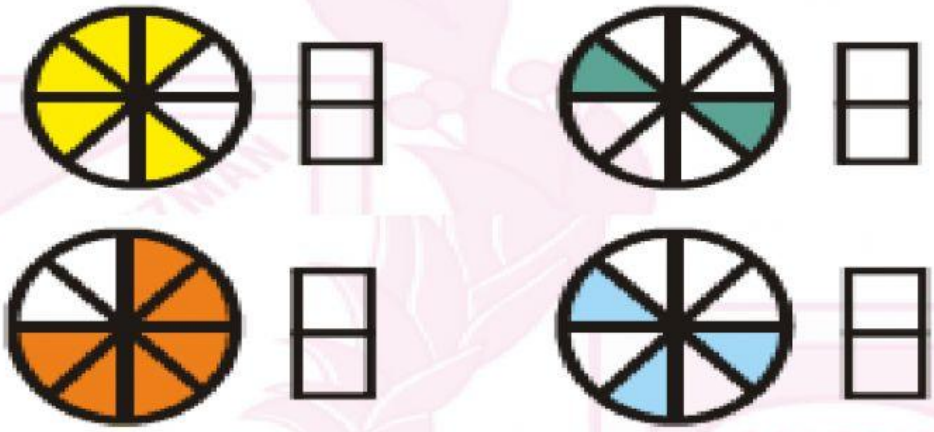

4. ¿Qué fracción representa cada dibujo? Marca la clase de fracción.

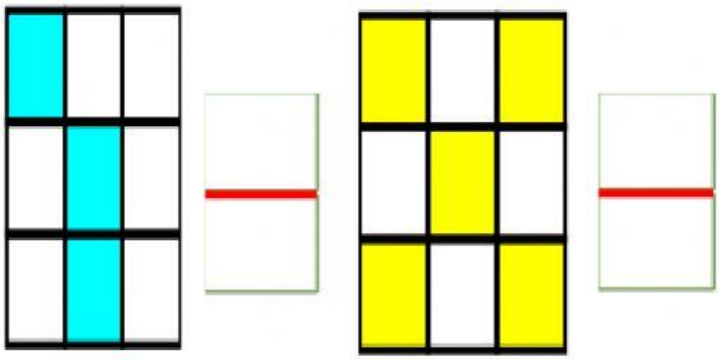

homogéneas

heterogéneas

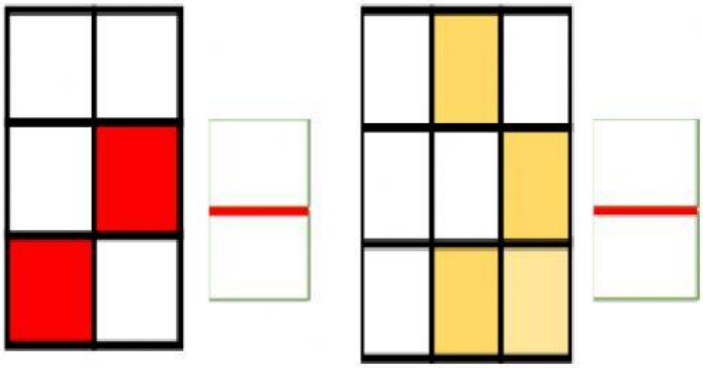

homogéneas

heterogéneas

LIVEWORKSHEETS