Struktur Lapisan Bumi & Tektonisme

1. Gerakan turun naiknya lapisan kulit bumi dalam waktu lambat dan meliputi daerah yang luas disebut dengan ....
   A. Orogenesa
   B. Orogenetik
   C. Epirogenesa
   D. Fotogenetik
   E. Metamorfosa

2. Perhatikan pernyataan berikut!
   1) Gerakannya cenderung lambat
   2) Gerakannya cenderung cepat
   3) Terjadinya pengangkatan daratan
   4) Terjadinya penurunan daratan
   5) Permukaan air laut seolah-olah turun

   Berdasarkan data di atas, kondisi yang sesuai saat terjadinya epirogenesa negatif ditunjukkan oleh nomor ....

   A. 1), 2), dan 5)
   B. 1), 3), dan 4)
   C. 1), 3), dan 5)
   D. 2), 3), dan 4)
   E. 2), 3), dan 5)

3. Perhatikan gambar berikut ini!

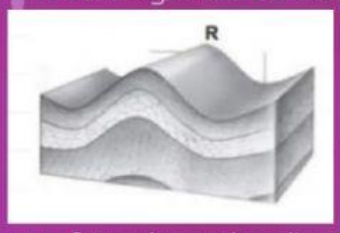

   Huruf R pada gambar di atas menunjukkan ....

   A. Monoklin
   B. Sinklinal
   C. Antiklinal
   D. Lipatan
   E. Graben

4. Perhatikan gambar berikut ini!

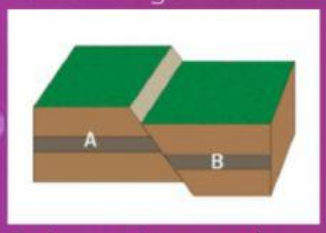

   Pada gambar patahan tersebut, bagian A menunjukkan ...., sedangkan bagian B menunjukkan ....

   A. Footwall; transform
   B. Sinklin; hangingwall
   C. Footwall; hangingwall
   D. Hangingwall; footwall
   E. Transform; hangingwall

5. Perhatikan gambar berikut ini!



   Gambar tersebut menunjukkan gambar permukaan bumi, yaitu ....

   A. (A graben); (B slenk)
   B. (A horst); (B graben)
   C. (C antiklinal); (B sinklinal)
   D. (C sinklinal); (B antiklinal)
   E. (A horst); (D sinklinal)

LIVEWORKSHEETS