PROBLEMAS TIEMPO 7

Resuelve los problemas. Escribe solo la respuesta con este formato 8:35

Puedes dibujarte un reloj en un papel para ayudarte.

1. Una película comenzó a las 7:30 p.m.
   Duró 1 hora y 45 minutos.
   ¿A qué hora terminó?

   Solución: ☐

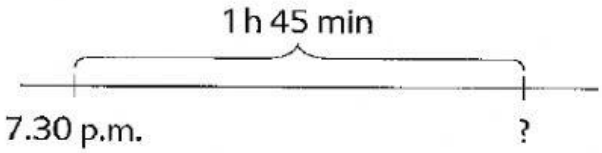

---

2. Mi padre comenzó a pescar a las 4:40 p.m.
   Él pescó el primer pez a las 6:00 p.m.
   ¿Cuánto tiempo le costó pescar el primer pez?

   Solución: ☐

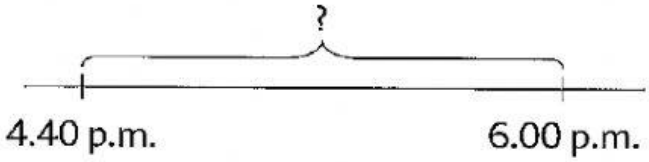

---

3. Un concierto comenzó a las 7:35 p.m.
   María llegó al teatro 25 minutos antes del comienzo.
   ¿A qué hora llegó María al teatro?
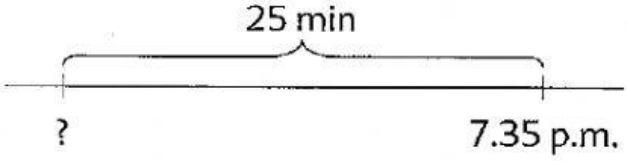
   Solución: ☐