MENGAMATI ORGAN TUMBUHAN DAN HEWAN

TUJUAN :

1. Menyebutkan organ yang ada pada tumbuhan
2. Menyebutkan organ yang ada pada manusia
3. Menganalisis sistem organ yang dibentuk oleh organ pada manusia

DATA PENGAMATAN :

A. Mengamati organ pada tumbuhan :
   1) Amati gambar tumbuhan di bawah ini
   2) Beri keterangan organ – organ yang dimiliki oleh tumbuhan tersebut dengan meletakkan kotak kotak dibawah pada bagian yang ditunjuk!

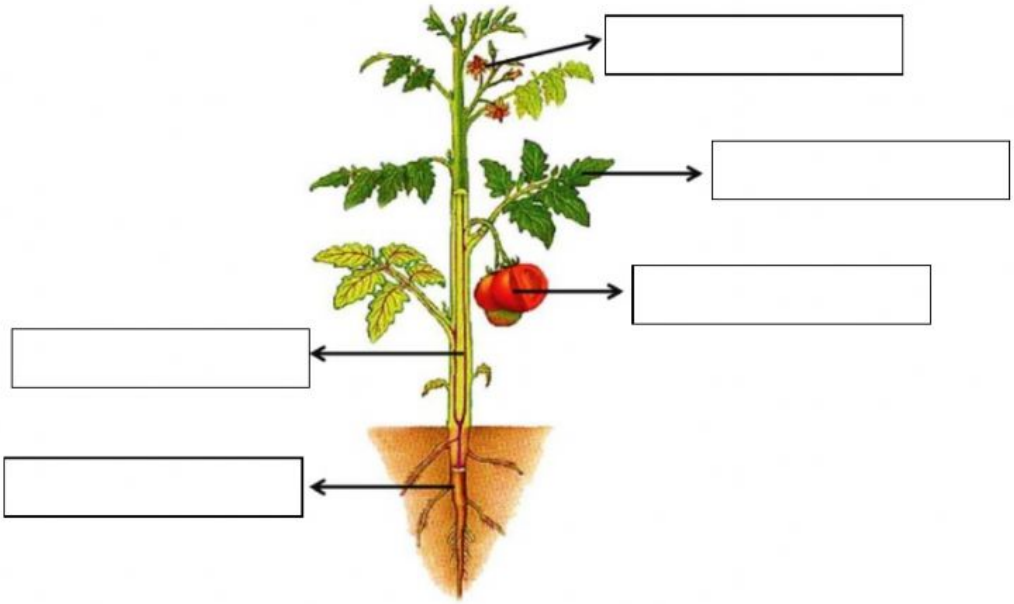

PILIHAN JAWABAN :

DAUN
BUAH
AKAR
BATANG
BUNGA

LIVEWORKSHEETS

B. Mengamati organ pada hewan

1. Amati gambar torso manusia di bawah ini
2. Beri keterangan organ – organ yang dimiliki oleh torso yang kalian amati dengan meletakkan kotak kotak dibawah pada bagian yang ditunjuk!

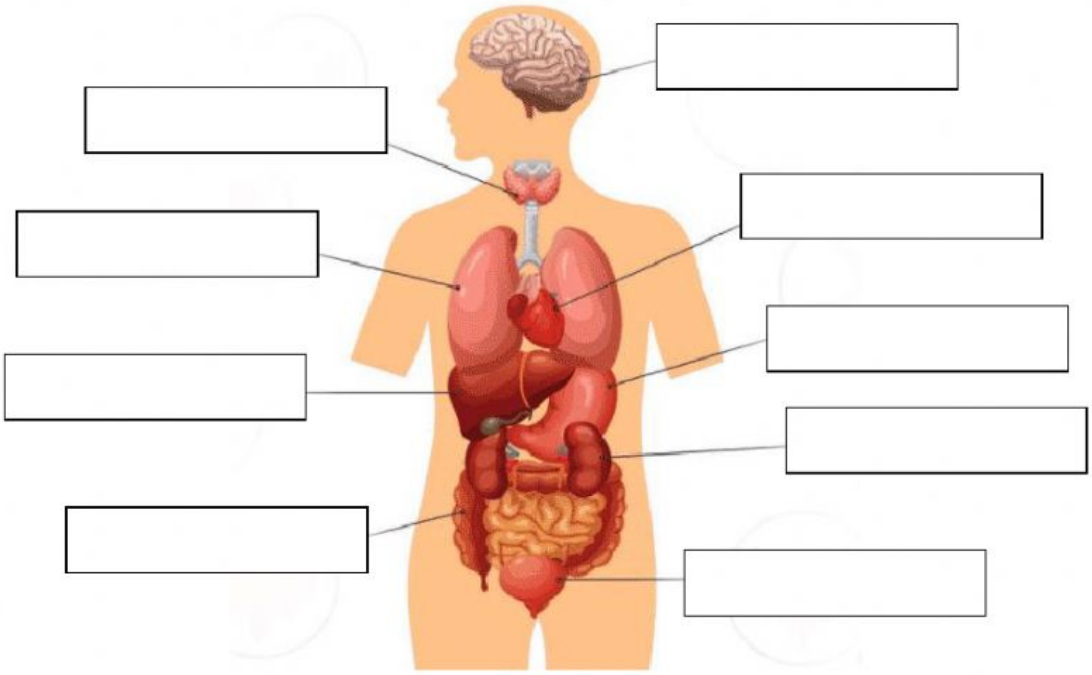

PILIHAN JAWABAN :

TENGGOROKAN	JANTUNG	PARU – PARU
HATI	LAMBUNG	USUS BESAR
KANDUNG KEMIH	GINJAL	OTAK

LIVEWORKSHEETS

3. Beri keterangan tabel berikut ini

No	Gambar	Nama organ	Fungsi organ
1			
2	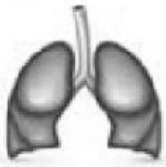		
3			
4			
5	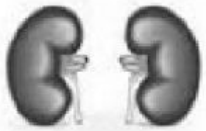		
6			
7	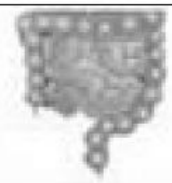		

LIVEWORKSHEETS