LÕIKUVAD, RISTUVAD JA PARALLEELSED SIRGED

Täida lüngad.

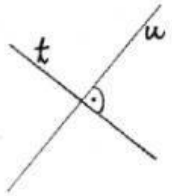

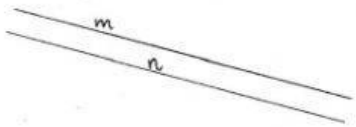

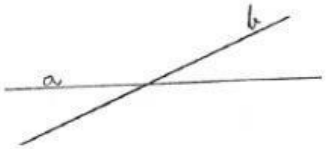

Kaks sirget ....., kui neil on üks ühine punkt.

Kui kaks sirget lõikuvad ja moodustavad seejuures täisnurga, siis nad ..... .

Kui kahel sirgel ei ole mitte ühtegi ühist punkti, on nad ..... .

Joonisel on lõikuvad sirged ..... ja ..... ,

ristuvad sirged ..... ja ..... ,

paralleelsed sirged ..... ja ..... .

LIVEWORKSHEETS