ใบงานที่ 40 เรื่อง พื้นที่ของรูปสี่เหลี่ยมมุมฉาก

กลุ่มสาระการเรียนรู้ คณิตศาสตร์

วันที่.....เดือน.....พ.ศ. .....

ชื่อ.....นามสกุล.....ชั้น.....เลขที่.....

โรงเรียนพระยามนธาตุราชศรีพิจิตร สำนักงานเขตบางบอน กรุงเทพมหานคร

.....

1. หาพื้นที่ของรูปสี่เหลี่ยมมุมฉากต่อไปนี้

1)



7 ซม.

พื้นที่.....ตารางเซนติเมตร

2)

พื้นที่.....ตารางเมตร

3)



พื้นที่.....ตารางเซนติเมตร

4)



พื้นที่.....ตารางนิ้ว

5)

พื้นที่.....ตารางเซนติเมตร

6)

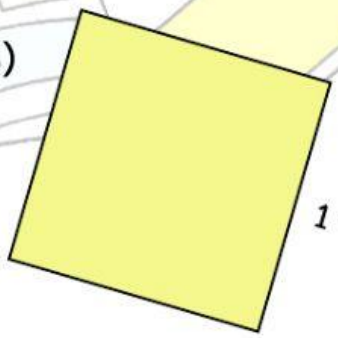

พื้นที่.....ตารางวา

LIVEWORKSHEETS

2. หาคำตอบ (ตอบเป็นตัวเลขฮินดู - อารบิก)

1.) กระดาษรูปสี่เหลี่ยมผืนผ้าแผ่นหนึ่งกว้าง 21 เซนติเมตร ยาว 30 เซนติเมตร กระดาษแผ่นนี้มีพื้นที่กี่ตารางเซนติเมตร

<u>ตอบ</u> กระดาษแผ่นนี้มีพื้นที่.....ตารางเซนติเมตร

2.) ผ้าปูโต๊ะรูปสี่เหลี่ยมจัตุรัสผืนหนึ่งยาวด้านละ 80 เซนติเมตร ผ้าปูโต๊ะผืนนี้มีพื้นที่กี่ตารางเซนติเมตร

<u>ตอบ</u> ผ้าปูโต๊ะผืนนี้มีพื้นที่.....ตารางเซนติเมตร

3.) พื้นห้องนอนของนักเรียนเป็นรูปสี่เหลี่ยมผืนผ้า กว้าง 8 เมตร ยาว 7 เมตร ห้องนอนของนักเรียนมีพื้นที่กี่ตารางเมตร

<u>ตอบ</u> ห้องนอนของนักเรียนมีพื้นที่.....ตารางเมตร

4.) พ่อซื้อที่ดินแห่งหนึ่งไว้สำหรับทำการเกษตร พื้นที่เป็นรูปสี่เหลี่ยมจัตุรัส มีความยาวด้านละ 120 วา ที่ดินที่พ่อซื้อมีพื้นที่กี่ตารางวา

<u>ตอบ</u> ที่ดินที่พ่อซื้อมีพื้นที่.....ตารางวา

5.) ชาวนาต้องการขุดสระน้ำเพื่อเก็บน้ำไว้ใช้ สระน้ำที่ขุดเป็นรูปสี่เหลี่ยมผืนผ้า มีความกว้าง 25 เมตร ยาว 30 เมตร สระน้ำที่ขุดมีพื้นที่กี่ตารางเมตร

<u>ตอบ</u> สระน้ำที่ขุดมีพื้นที่.....ตารางเมตร

LIVEWORKSHEETS