Dividing 4 digit numbers by a single number (cont.)

1. Count:

$2\overline{)16\,85}$ $3\overline{)21\,75}$

Trắc nghiệm: Chọn đáp án đúng từ câu 1-4:

1. Số bé là 7, số lớn là 280. Số lớn gấp số bé là:

A. 40 lần **B.** 21 lần **C.** 35 lần **D.** 8 lần

2. Giảm 484 giờ đi 4 lần thì được:

A. 123 giờ **B.** 460 giờ **C.** 121 giờ **D.** 240 giờ

3. Kết quả của phép tính 1247 : 4 = ?

A. 311 **B.** 311 dư 1 **C.** 311 dư 2 **D.** 311 dư 3

4. ***eight thousands three hundreds four tens two ones*** is presented as:

A. 8432 **B.** 8342 **C.** 2438 **D.** 3482

LIVEWORKSHEETS

2. *Divide:*

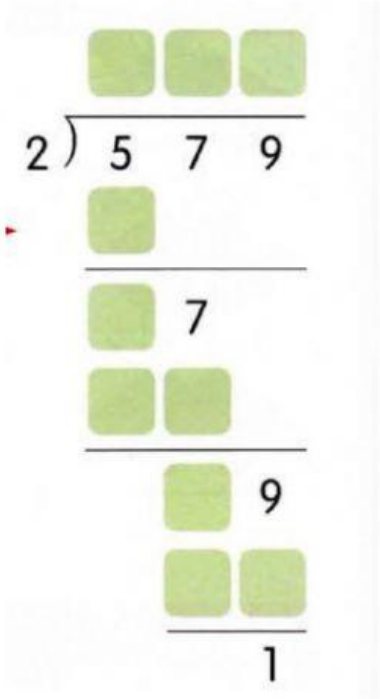

Example: 1025 : 2 = ***512R1***

a 3385 : 2 =

b 3458 : 5 =

c 6529 : 4 =

d 1385 : 3 =

3.Divide. Find the quotient and remainder.

a 357 ÷ 2 = with remainder

b 269 ÷ 3 = with remainder

c 525 ÷ 4 = with remainder

d 468 ÷ 5 = with remainder

Find the missing numbers.

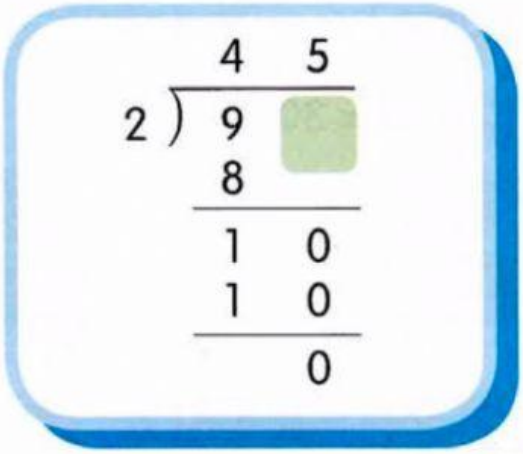

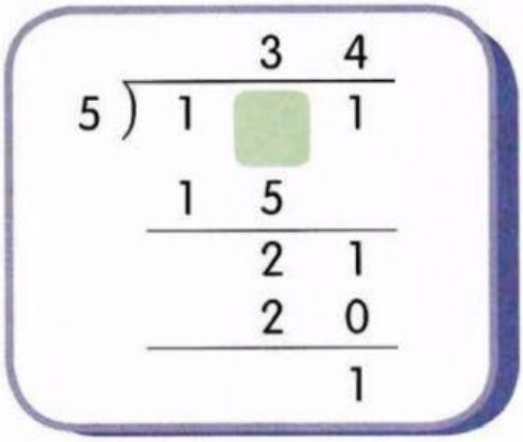

LIVEWORKSHEETS

4.

Mr Yap had 263 stickers.
He gave each of his 8 pupils an equal number of stickers.
How many stickers did each pupil get? _____ stickers
How many stickers were left? _____ stickers

5.Một cuộn dây thép dài 1289m được cắt thành các đoạn bằng nhau. Mỗi đoạn dài 5m. Hỏi cắt được bao nhiêu đoạn và còn dư bao nhiêu mét?

Bài giải

Ta có:

Vậy cắt được ..... đoạn và còn dư .... mét

6.Các đoạn dây trên được chia đều cho 2 công trình xây dựng, còn dư sẽ đưa về nhà máy. Hỏi mỗi công trình nhận được bao nhiêu đoạn và đưa về nhà máy mấy đoạn?

Bài giải

Ta có:

Vậy mỗi công trình nhận được ..... đoạn và

còn dư ....đoạn để đưa về nhà máy.

LIVEWORKSHEETS