ชื่อ-สกุล.....เลขที่.....ชั้น.....

ใบงานคณิตศาสตร์

หน่วยที่ 9

9.1

เรื่อง การวัดความยาวเป็นเซนติเมตรและมิลลิเมตร

บอกความยาวเป็นเซนติเมตรและมิลลิเมตร

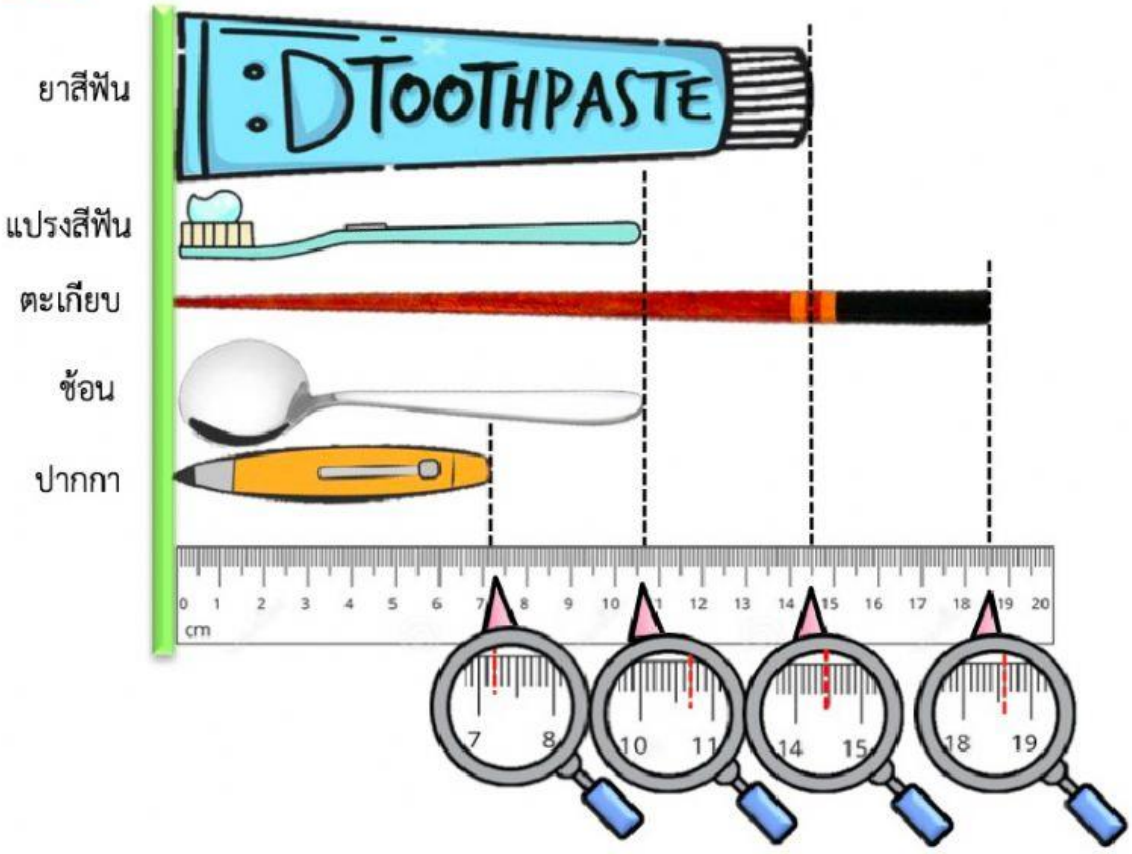

1. ปากกายาว ..... เซนติเมตร ..... มิลลิเมตร
2. ช้อนยาว ..... เซนติเมตร ..... มิลลิเมตร
3. ตะเกียบยาว ..... เซนติเมตร ..... มิลลิเมตร
4. แปรงสีฟันยาว ..... เซนติเมตร ..... มิลลิเมตร
5. ยาสีฟันยาว ..... เซนติเมตร ..... มิลลิเมตร

LIVEWORKSHEETS

ใบงานคณิตศาสตร์

หน่วยที่ 9

9.2

เรื่อง ความยาวเป็นเมตรและเซนติเมตร กิโลเมตรและเมตร

บอกความยาว ความกว้าง และความสูงเป็นเมตรและเซนติเมตร

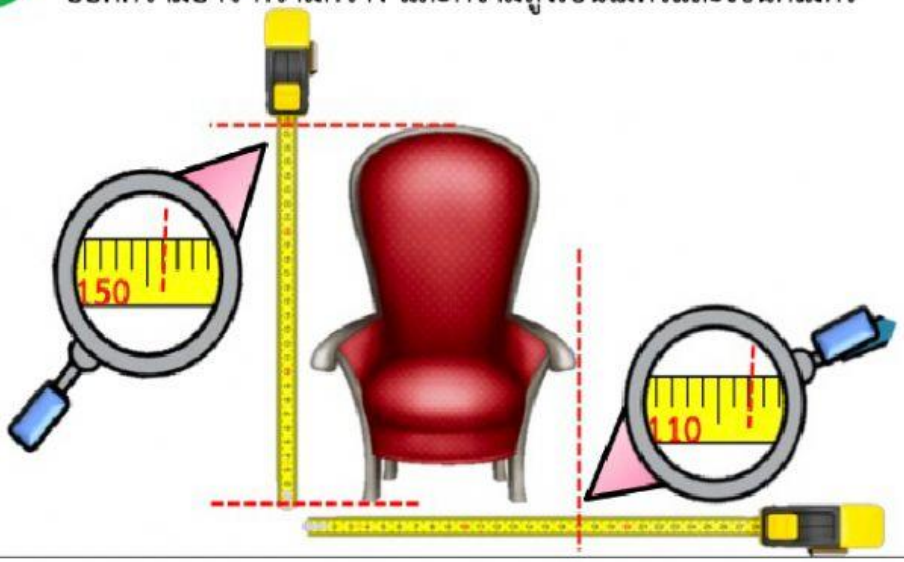

1. เก้าอี้ยาว..... เมตร ..... เซนติเมตร

2. เก้าอี้สูง..... เมตร ..... เซนติเมตร



1. กระดานกว้าง..... เมตร ..... เซนติเมตร

2. กระดานยาว..... เมตร ..... เซนติเมตร

LIVEWORKSHEETS

ใบงานคณิตศาสตร์

หน่วยที่ 9

9.3

เรื่อง การเลือกเครื่องวัดความยาวที่เหมาะสม

เลือกเครื่องมือวัดต่อไปนี้ให้สอดคล้องกับสิ่งที่กำหนด

1 ความยาวโน้ตบุ๊ก

วางคำตอบ

สายวัด

ไม้เมตร

2 ความยาวรั้วบ้าน

วางคำตอบ

สายวัด

ตลับมตร

3 ความยาวกางเกง

วางคำตอบ

ไม้บรรทัด

สายวัด

4 ความยาวสมุด

วางคำตอบ

ไม้บรรทัด



ตลับมตร

LIVEWORKSHEETS