Nama : ……

Setelah menyimak video pembelajarannya, tuliskan keadaan cuaca berdasarkan gambar di bawah ini !

……

……

……

LIVEWORKSHEETS

.....

.....

Setelah mengetahui symbol cuaca coba kalian ingat-ingat cuaca selama seminggu ke belakang!

Waktu	Senin	Selasa	Rabu	Kamis	Jum'at
Siang					
Malam					



LIVEWORKSHEETS

Carilah pasangan lambang pecahan untuk soal di bawah ini !

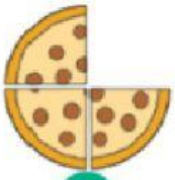

1

$\frac{1}{3}$

2

$\frac{1}{4}$



3

$\frac{1}{2}$

4

$\frac{1}{8}$

5

$\frac{1}{4}$

6

$\frac{1}{4}$

LIVEWORKSHEETS

Simak video lagu yang berjudul “Ambilkan Bulan, Bu”

Setelah menyimak video lagu tersebut lalu hafalkan y…

Kirim menggunakan voice note ke wa japri ibu ya…

LIVEWORKSHEETS