الفصل الدراسي الثاني 2022

الصف :الثامن بنات

اليوم : الجمعة 2022/1/7

الحصة : الثالثة

الدرس الثالث : زوايا المثلث

الوحدة : الخامسة

الهدف : تحديد مجموع قياسات زوايا المثلث

1. أوجد قيمة x في المثلث.

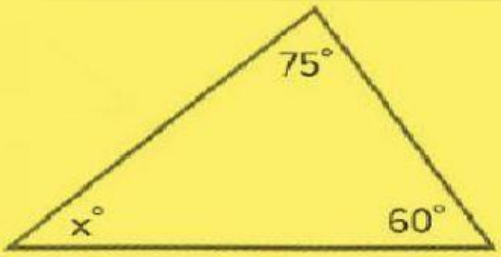

a) 45°

b) 135°

c) 75°

2) أوجدقيمة الزاوية المجهولة ؟

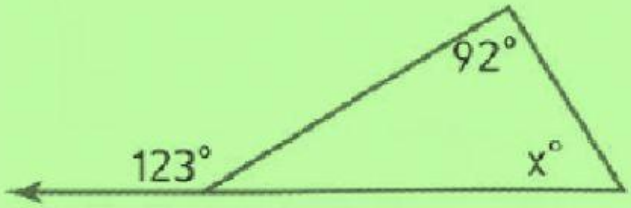

i) 13°

h) 31°

g) 123°

3) أوجد قيمة المجهول ؟

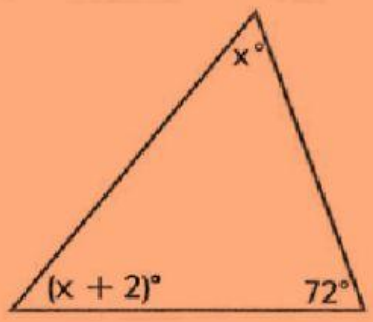

e) 72°

d) 74°

f) 53°

مديرة المدرسة
نجوى الطنيجى

انتهت الأسئلة يا دكتورة ... معلم المادة : أ / إيهاب الشربيني