PHÉP NHÂN

1 Xem hình rồi nói và viết phép nhân (theo mẫu):

Mẫu:

5 được lấy 3 lần

5 x 3 = 15

a)

4 được lấy 5 lần

4 ◯ 5 = 20

b)



6 được lấy 2 lần

6 ◯ 2 = 12

2 Nối phép nhân thích hợp với mỗi tranh vẽ:



5 x 2



6 x 3

4 x 3

LIVEWORKSHEETS

3 Chuyển tổng các số hạng bằng nhau thành phép nhân (theo mẫu):

Mẫu: 7 + 7 + 7 = 21
7 x 3 = 21

a) 2 + 2 + 2 = 6

.....

b) 10 + 10 + 10 + 10 = 40

.....

c) 9 + 9 = 18

.....

d) 5 + 5 + 5 + 5 + 5 + 5 = 30

.....

4 Nối phép nhân với tổng tương ứng:

a)

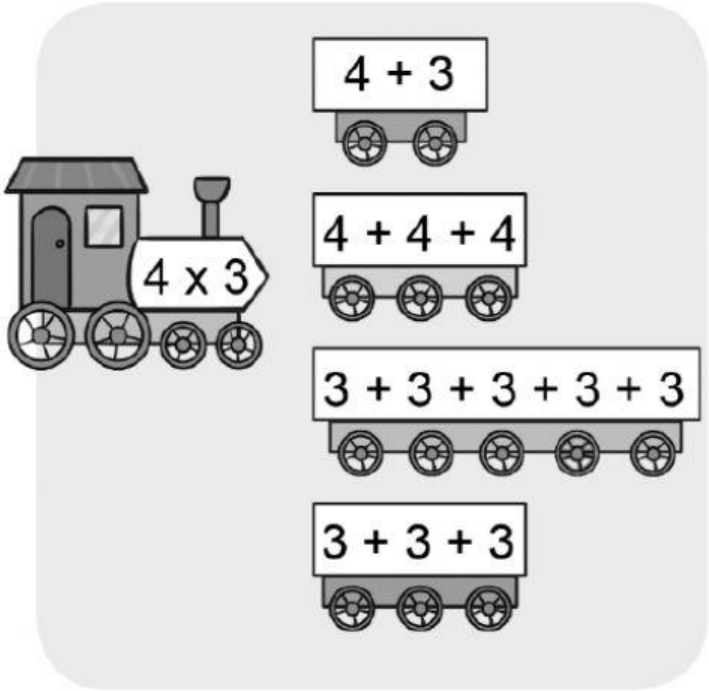

b)

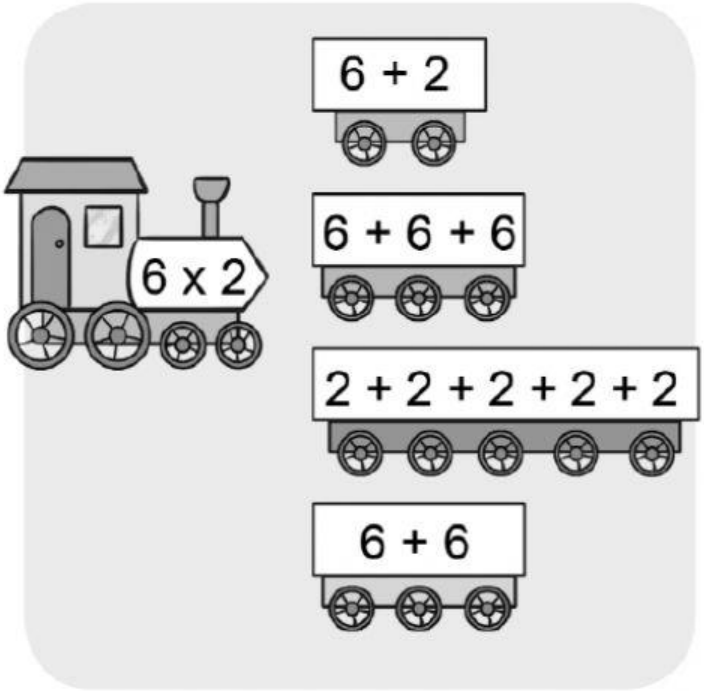

LIVEWORKSHEETS