UNIDAD EDUCATIVA FISCOMISIONAL
"Mariana De Jesús"

Construyendo la pedagogía del amor a Cristo

Regentada por las Hijas de la Caridad
Cayambe – Ecuador
2021-2022

Nombre:	
Fecha:	
Curso:	

1.- Una con líneas las partes de la fracción.

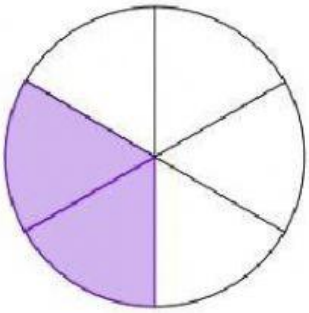

$$\frac{2}{6}$$

Denominador

Numerador

2.- Escriba las fracciones que representa cada gráfica.

a) ___

b) ___

c) ___

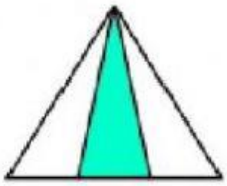

d) ___



e) ___

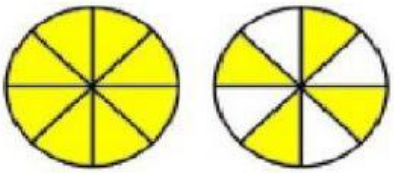

f) ___

Ejercicios Resueltos.net

LIVEWORKSHEETS