ТЕСТИ

Обери одну правильну відповідь

1. Як називається фігура, зображена на малюнку?

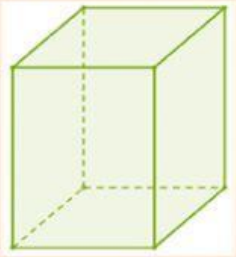

   1) Прямокутник
   2) Піраміда
   3) Куб
   4) Прямокутний паралелепіпед

2. Скільки ребер має прямокутний паралелепіпед?
   1) 12
   2) 8
   3) 6
   4) 3

3. Скільки граней має прямокутний паралелепіпед?
   1) 12
   2) 8
   3) 6
   4) 3

4. Якою геометричною фігурою є грань прямокутного паралелепіпеда?
   1) точка
   2) відрізок
   3) прямокутник
   4) трикутник

5. Сума довжини всіх ребер прямокутного паралелепіпеда дорівнює 60 см. Знайди суму довжин трьох його ребер, що виходять з однієї вершини.
   1) 30см
   2) 20см
   3) 10см
   4) 15см
   5) 5см



6. Обери формулу для об'єму куба



   1) $V=abc$
   2) $V=a^3$
   3) $V=(a+b)c$

LIVEWORKSHEETS

7. Всі грані куба є
   1) Прямокутникам
   2) Квадратами
   3) Трикутниками
   4) довільної форми

8. Площа поверхні куба дорівнює 54 см^2.
   Чому дорівнює площа однієї грані куба?
   1) 4 см^2
   2) 6 см^2
   3) 9 см^2
   4) 18 см^2

9. Сума всіх ребер куба дорівнює 72 см. Яка довжина ребра куба?
   1) 6 см
   2) 8 см
   3) 12 см
   4) 24 см

10. Яка фігура зображена на малюнку?

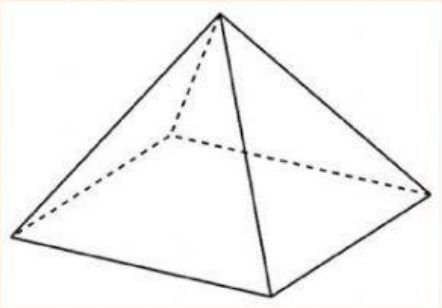

   1) Прямокутний паралелепіпед
   2) Куб
   3) Піраміда



LIVEWORKSHEETS