Họ và tên:..... Lớp: 3/....

Thứ ....., ngày ..... tháng 10 năm 2021

PHIẾU BÀI TẬP TOÁN TUẦN 3

ÔN TẬP VỀ HÌNH HỌC

Bài 1: a) Tính độ dài đường gấp khúc ABCD :

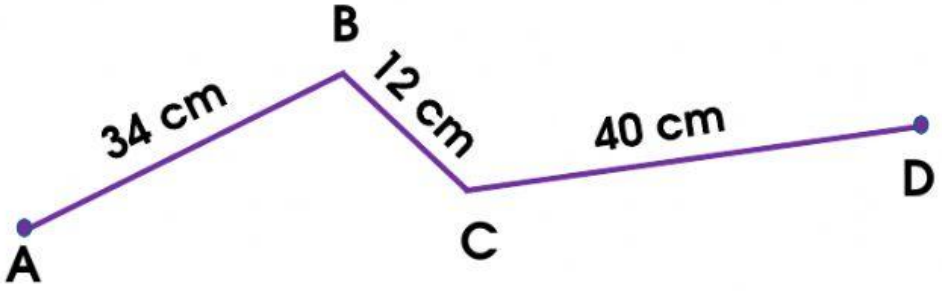

Bài giải

.....

.....

.....

b) Tính chu vi hình tam giác MNP :

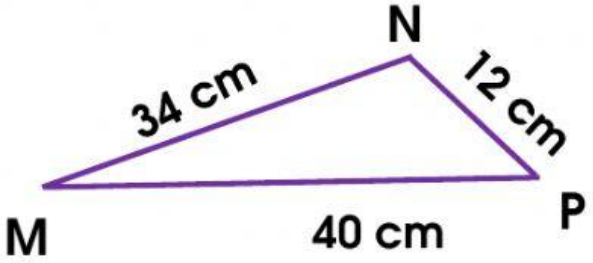

Bài giải

.....

.....

.....

LIVEWORKSHEETS

Bài 2: Tính chu vi hình chữ nhật ABCD.

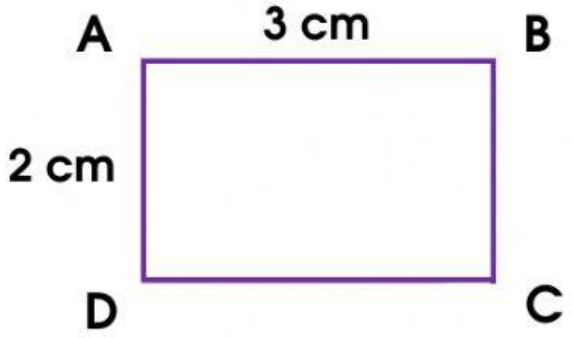

Bài giải

.....

.....

.....

Bài 3: Trong hình bên:

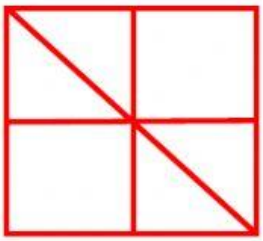

- Có bao nhiêu hình vuông ?
- Có bao nhiêu hình tam giác ?

Bài giải

.....

.....

.....

LIVEWORKSHEETS

Họ và tên:..... Lớp: 3/.....

Thứ ....., ngày ..... tháng 10 năm 2021

PHIẾU BÀI TẬP TOÁN TUẦN 3

ÔN TẬP VỀ GIẢI TOÁN

Bài 1: Đội Một trồng được 230 cây, đội Hai trồng được nhiều hơn đội Một 90 cây. Hỏi đội Hai trồng được bao nhiêu cây ?

Bài giải

.....

.....

.....

Bài 2: Một cửa hàng buổi sáng bán được 635ℓ xăng, buổi chiều bán được ít hơn buổi sáng 128ℓ xăng. Hỏi buổi chiều cửa hàng đó bán được bao nhiêu lít xăng ?

Bài giải

.....

.....

.....

Bài 3: Lớp Ba 1 có 15 bạn nữ và 13 bạn nam. Hỏi số bạn nữ nhiều hơn số bạn nam là bao nhiêu ?

Bài giải

.....

.....

.....

LIVEWORKSHEETS