# PENDIDIKAN SENI VISUAL
# TINGKATAN 2 KSSM

## TAJUK 5 : REKA BENTUK LANDSKAP

| | |
|---|---|
| 1 | Pilih antara berikut definisi yang paling tepat tentang reka bentuk landskap .<br><br>A Kaedah penyelenggaraan taman hiasan<br>B Aktiviti mengatur urus landskap semula jadi<br>C Pemandangan di atas mukabumi yang bersifat semula jadi<br>D Proses menyusun elemen landskap supaya menarik dan berfungsi |
| 2 | Berdasarkan gambar rajah di bawah, apakah nama bagi taman tersebut ?<br><br>A Taman Gantung Babylon<br>B *Minneapolis Sculpture Garden*<br>C *Butchart Gardens di British Columbia*<br>D Taman al-Hambra<br><br> |
| 3 | Apakah jenis pembahagian reka bentuk landskap yang betul ?<br><br>I Landskap Kejur<br>II Landskap binaan<br>III Landskap tanaman<br>IV Landskap Lembut<br><br>A I dan II<br>B I dan IV<br>C II dan III<br>D III dan IV |
| 4 | Pilih di antara berikut taman yang telah wujud sejak zaman penjajahan lagi .<br><br>I Taman Tasik Taiping , Perak<br>II Taman Botani, Pulau Pinang<br>III Taman Tasik Shah Alam, Selangor<br>IV Taman Tasik Permaisuri, Kuala Lumpur<br><br>A I dan II<br>B I dan IV<br>C II dan III<br>D III dan IV |

LIVEWORKSHEETS

| | |
|---|---|
| 5 | Gambar di bawah menunjukkan sebuah reka bentuk landskap .<br>Apakah jenis landskap tersebut ?<br> <br>A Landskap kejur<br>B Landskap lembut<br>C Landskap buatan<br>D Landskap halaman |
| 6 | Apakah fungsi utama Jabatan Landskap Negara ?<br>A Institusi yang melahirkan pereka bentuk landskap<br>B Menyediakan tenaga mahir dalam bidang landskap<br>C Menyediakan panduan pembangunan landskap negara<br>D Menyediakan insfrastruktur dan kemudahan bahan landskap |
| 7 | Apakah fungsi landskap berdasarkan gambar rajah di bawah ?<br> <br>A Mengarah pergerakan<br>B Menyejukkan iklim<br>C Membentuk ruang<br>D Imbangan ekologi |
| 8 | Apakah peranan reka bentuk landskap berdasarkan nilai estetikanya ?<br>I Mengawal pencemaran<br>II Mengawal hakisan tanah<br>III Mencantikkan pemandangan<br>IV Membentuk ruang lebih menarik<br>A I dan II<br>B I dan IV<br>C II dan III<br>D III dan IV |

LIVEWORKSHEETS

| | |
|---|---|
| 9 | Gambar rajah di bawah menunjukkan satu proses penghasilan reka bentuk landskap.<br>Apakah nama proses tersebut ?<br><br> 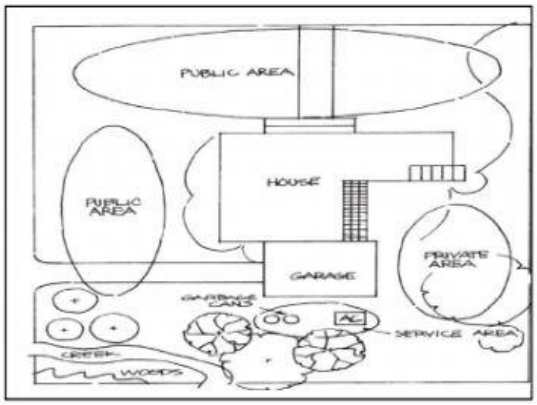 <br><br><br>A Pelan Landskap<br>B Lukisan Konsep<br>C Lukisan Perspektif<br>D Pelan Keratan Rentas |
| 10 | Gambar di bawah menunjukkan sebuah arca taman .<br>Apakah fungsi arca tersebut ?<br><br> <br><br>A Membentuk ruang<br>B Melembutkan pemandangan<br>C Kesan penumpuan pada taman<br>D Menaikkan nilai kepelbagaian |
| 11 | Maklumat di bawah menerangkan tentang salah satu konsep landskap .<br><br>• **Tanaman boleh digunakan untuk masakan atau perubatan**<br>• **Mempunyai elemen buatan seperti pagar dan gazebo.**<br><br>Apakah konsep landskap tersebut ?<br><br>A Konsep Landskap Thai<br>B Konsep Landskap Melayu<br>C Konsep Landskap Islam<br>D Konsep Landskap Inggeris |
| 12 | Apakah fungsi ergonomik dalam sebuah reka bentuk landskap ?<br><br>A Memastikan reka bentuk efisyen dan selamat<br>B Melindungi habitat liar yang hidup di taman<br>C Memastikan konsep bertepatan dengan budaya setempat<br>D Memastikan taman mempunyai ruang rehat yang banyak |

LIVEWORKSHEETS

| | |
|---|---|
| 13 | Berdasarkan reka bentuk pelan landskap di bawah, apakah jenis imbangan yang digunakan ?<br><br>A Imbangan simetri<br>B Imbangan berpusat<br>C Imbangan berjajaran<br>D Imbangan tidak simetri<br><br> |
| 14 | Ilustrasi di bawah menunjukkan proses menghasilkan pelan reka bentuk landskap .<br>Apakah nama proses tersebut ?<br><br>A Kemasan kerja<br>B Memasukkan simbol<br>C Menyusun atur tanaman<br>D Olahan warna ( *rendering* )<br><br> 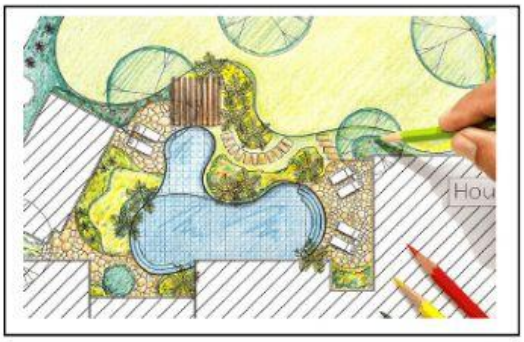 |
| 15 | Berdasarkan gambar rajah di bawah, apakah konsep landskap tersebut ?<br><br>A Konsep Landskap Bali<br>B Konsep Landskap Islam<br>C Konsep landskap Jepun<br>D Konsep Landskap Melayu<br><br> |
| 16 | Senaraikan peranan dan fungsi landskap dari aspek fizikal .<br><br>I Mengawal hakisan tanah<br>II Mengelakkan kebosanan<br>III Melembutkan persekitaran<br>IV Mengawal pencemaran alam<br><br>A I dan II<br>B I dan IV<br>C II dan III<br>D III dan IV |

LIVEWORKSHEETS

| | |
|---|---|
| 17 | Apakah prinsip reka bentuk landskap yang menjadi keutamaan pada gambar rajah di bawah ?<br><br>A Irama<br>B Kesatuan<br>C Penegasan<br>D Kepelbagaian<br><br> |
| 18 | Gambar rajah di bawah menunjukkan salah satu alat bagi menghasilkan pelan reka bentuk landskap. Apakan nama alat tersebut ?<br><br>A *French curve*<br>B Sesiku segi tiga<br>C Stensil huruf<br>D Sesiku T<br><br>  |
| 19 | Berdasarkan gambar rajah di bawah, apakah jenis simbol bagi pelan landskap tersebut ?<br><br>A Palma<br>B Pokok<br>C Padang<br>D Pokok renek<br><br>  |
| 20 | Selain daripada tumbuhan dan air, apakah elemen bagi reka bentuk landskap yang lain ?<br><br>I Struktur<br>II Unggas<br>III Cahaya<br>IV Topografi<br><br>A I dan II<br>B I dan IV<br>C II dan III<br>D III dan IV |

LIVEWORKSHEETS