¿Qué vamos a hacer esta semana?

- Repaso de lo anterior
- Resolución de problemas

Las multiplicaciones

Resuelve estas multiplicaciones:

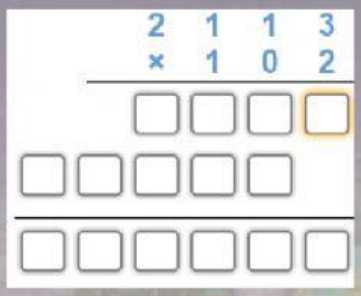

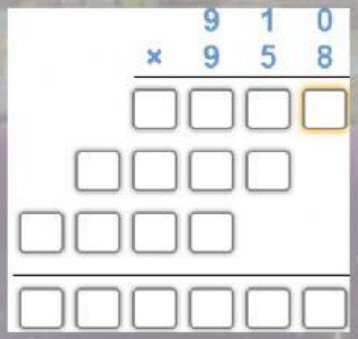



Las potencias: cuadrado y cubo

Coloca en cada hueco la opción correcta:

- Seis elevado al cubo se escribe en forma de producto como _____
- 9^3 = _____ y se lee como nueve elevado al _____
- 5^2 es una multiplicación en la que el factor _____ se repite _____ veces y su producto es _____
- El producto de la multiplicación 21x21 es _____ Esta multiplicación puede ponerse en forma de potencia y se lee como veintiuno elevado al _____

cubo | 5 | 9 × 9 | 9.261 | 10 | cuadrado | 6 × 6 × 6 | 6 × 6 | tres | 2 | 9 × 9 × 9 | 441 | 125 | 25 | 8.261



Las divisiones

Resuelve estas divisiones:

8 8 1 6 | 8

3 8 7 | 3

5 2 4 1 7 | 7

Resolución de problemas

¿Cuántos minutos leyeron el mes pasado? Lee cada frase, une cada enunciado con la multiplicación correspondiente y la multiplicación con el resultado correcto.

- Ira leyó todos los días de abril 35 minutos antes de dormir
- Tristeza leyó en el tren camino al trabajo los 20 días que trabajó. El trayecto dura 75 minutos.
- Riley leyó todos los días del mes de junio por las tardes 60 minutos
- Miedo leyó 24 minutos los primeros 15 días del mes pasado.

- 24 x 15
- 35x30
- 60 x 30
- 75 x 20

- 1050
- 360
- 1500
- 1800

Resolución de problemas

Elige la pregunta para que el problema se resuelva con dos operaciones. Después, resuelve el problema.

Alegría va a la frutería y compra 3 cajas con 32 kilos de manzanas rojas cada una y otra caja con 24 kilos de manzanas verdes.

Pregunta:

- ¿Cuántos kilos de manzanas rojas compró?
- ¿Cuántos kilos de manzanas verdes le faltan para tener 50 kilos?
- ¿Cuántos kilos de manzanas compró?

¡¡¡LO HAS HECHO
GENIAL!!!