Trường Tiểu học Nghĩa Trung

Thứ…….ngày … tháng 1 năm 2022

Lớp : 1...

Họ và tên :.....

BÀI KIỂM TRA CUỐI HỌC KÌ I

MÔN : Toán

THỜI GIAN : 40 phút

Điểm	Ký tên	Nhận xét ....

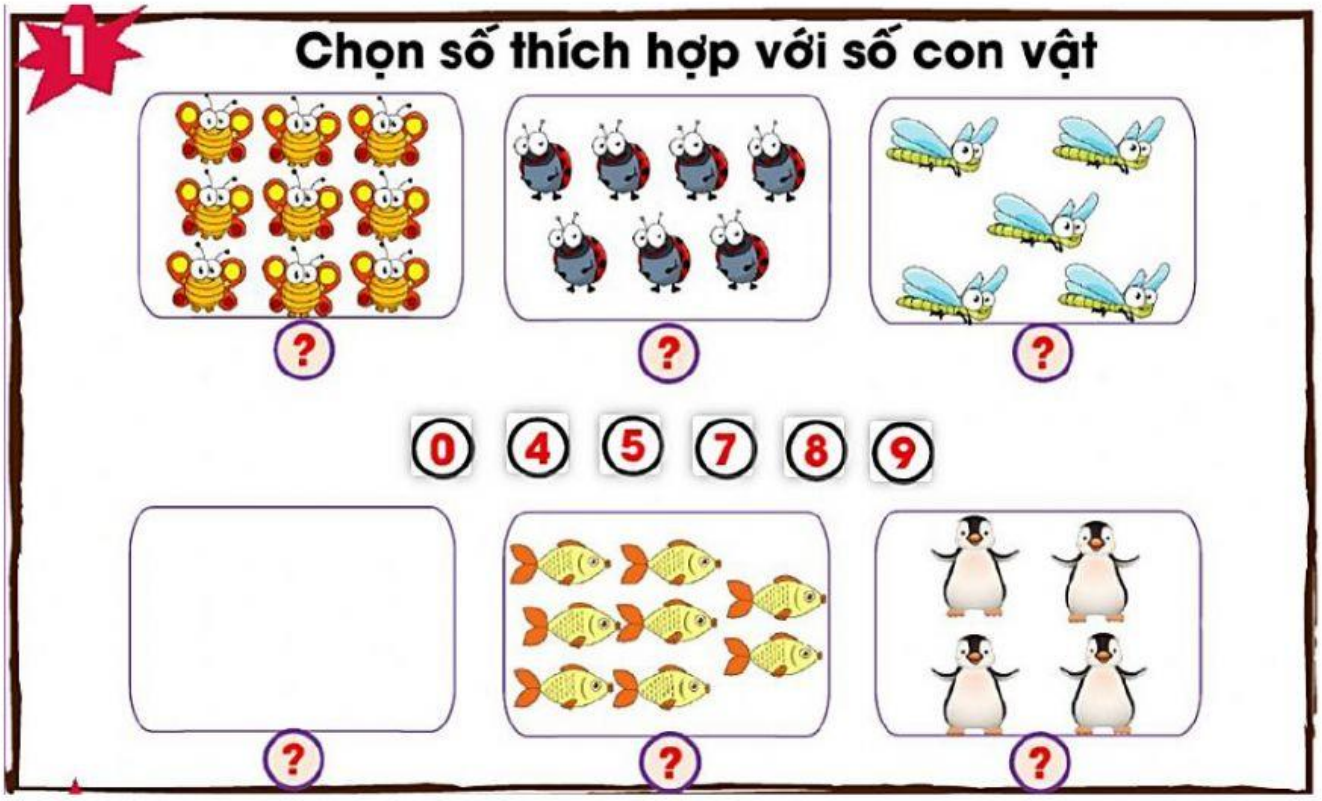

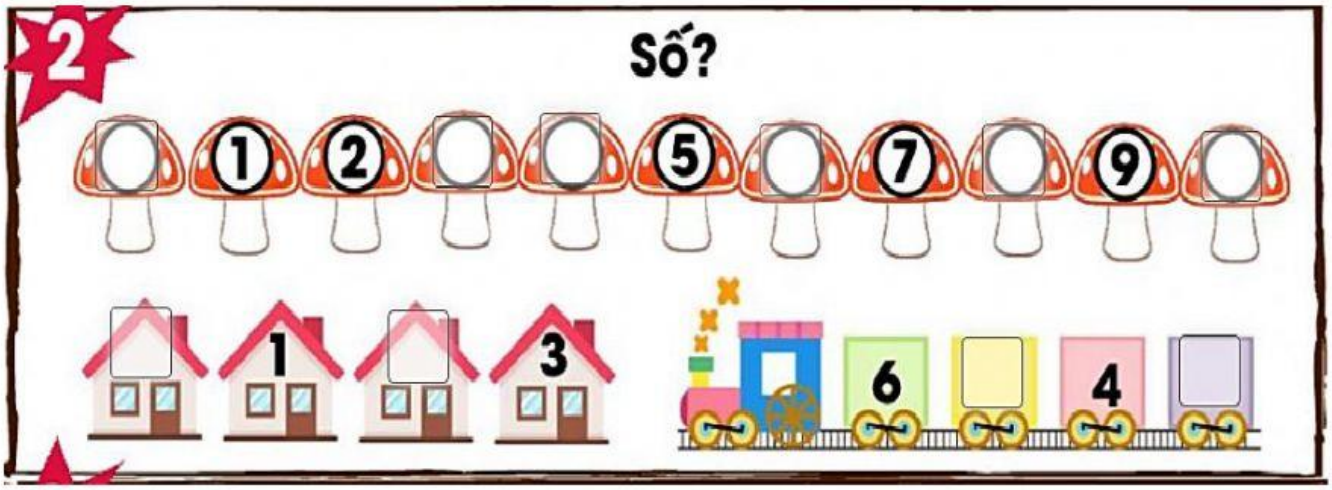

LIVEWORKSHEETS

3 Số nào là số bé nhất:

1 2 7 5

4 Điền dấu + ; - ?

3 ☐ 2 = 1 4 ☐ 2 = 2 5 = 6 ☐ 1

3 ☐ 1 = 4 5 ☐ 2 = 3 4 = 0 ☐ 4

5 Điền >; <; = ?

2 + 5 ☐ 6 – 4 3 – 2 ☐ 2 – 1 6 – 5 ☐ 4 + 2

5 – 3 ☐ 1 + 8 5 + 3 ☐ 4 – 2 6 – 2 ☐ 2 + 6

6 Số?

..... ○

..... ▭

..... □

..... △

LIVEWORKSHEETS

7 Viết số thích hợp vào chỗ chấm

6 + 2 = ... 8 – 5 = ...

5 + 4 = ... 9 – 1 = ...

8 Tính:

10 – 7 – 3 = ☐ 9 – 2 + 1 = ☐

5 + 4 – 6 = ☐ 8 + 2 – 8 = ☐

9 Viết phép tính thích hợp với hình vẽ:

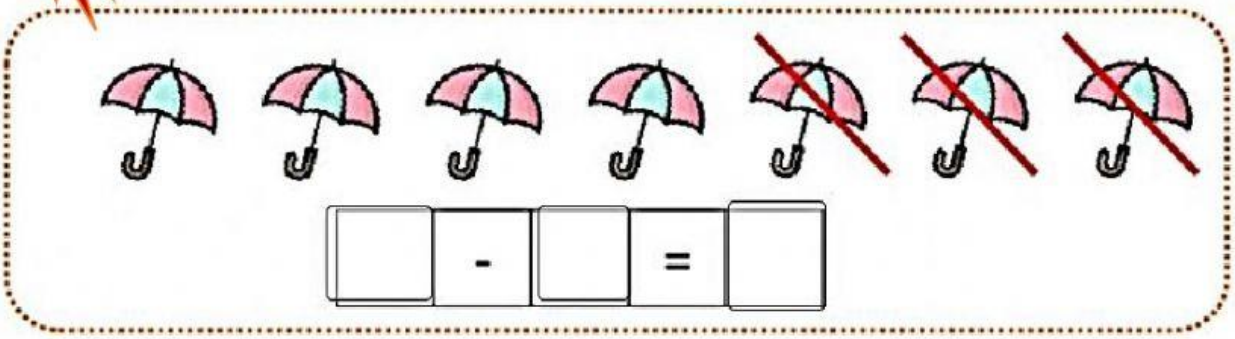

☐ - ☐ = ☐

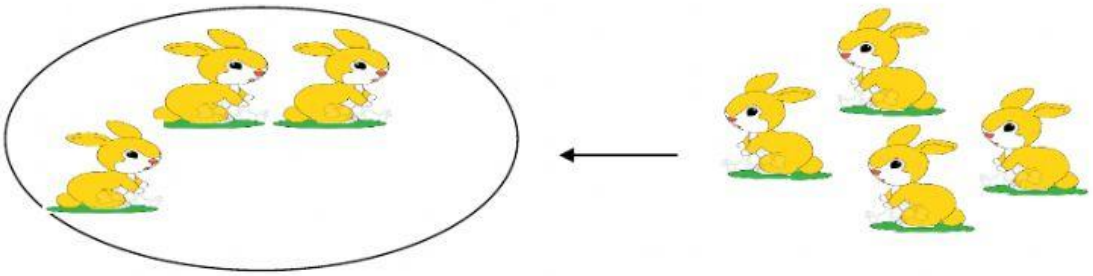

☐ ☐ ☐ ☐ ☐

LIVEWORKSHEETS