Pendidikan Seni Visual
Tingkatan 1 KSSM

TAJUK 6 : RUANG

1	Nyatakan jenis ruang yang terdapat pada gambar di bawah . A Ruang realiti B Ruang sempit C Ruang terbuka D ruang tertutup
2	Pilih antara karya catan di bawah yang dapat menunjukkan ruang rata . A  B C 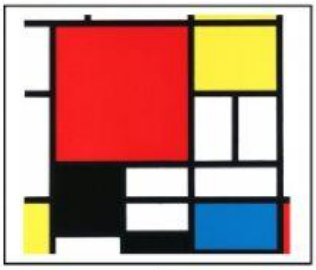 D
3	**Ruang ini terdapat pada karya seni seperti lukisan, catan dan cetakan** Pernyataan di atas merujuk kepada _____ . A ruang ilusi B ruang fizikal C ruang perspektif D ruang satu titik lenyap

LIVEWORKSHEETS

4	Di sebuah taman permainan , orang yang terdekat pada pandangan kita akan kelihatan lebih _____ daripada orang yang jauh dari pandangan mata . A kecil B besar C bersinar D berpaksi
5	Garisan yang terdapat pada karya lukisan di bawah dikenali sebagai _____ . A garisan berfokus B garisan kaki langit C garisan ruang dalam D garisan gred perspektif 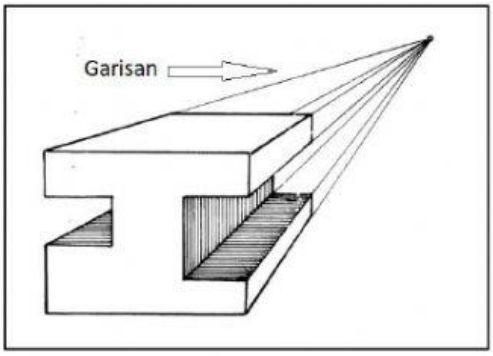
6	Dalam karya catan air, bahagian belakang karya diwarnakan cair dan pudar bagi mengambarkan _____ . A kesan jalinan B objek dan saiz C ruang dan kedalaman D perspektif dan titik lenyap
7	Gambarajah di bawah dikenali sebagai ruang perspektif satu titik lenyap kerana _____ I menunjukkan satu fokus II menimbulkan dua fokus III memberikan gambaran atas dan bawah IV memperlihatkan dengan jelas kedalaman ruang A I dan II B I dan IV C II dan III D III dan IV

LIVEWORKSHEETS

8	Gambarajah di bawah menunjukkan bagunan pada kedudukan _____ . A perspektif satu titik lenyap B perspektif dua titik lenyap C perspektif tiga titik lenyap D perspektif empat titik lenyap
9	Apakah kelebihan melihat secara nyata pameran arca seperti di bawah A Menghayati ruang tertutup B Boleh menyentuh arca yang dipamer C Arca boleh dilihat dari pelbagai sudut D Menampakkan jarak arca dengan arca yang lain
10	Rajah di bawah menunjukkan sebuah logo yang menimbulkan ruang _____ . A ruang rata B ruang cetek C ruang dalam D ruang fizikal

LIVEWORKSHEETS