ÔN TOÁN LỚP 1

PHIẾU 6

Bài 1 : Số ?

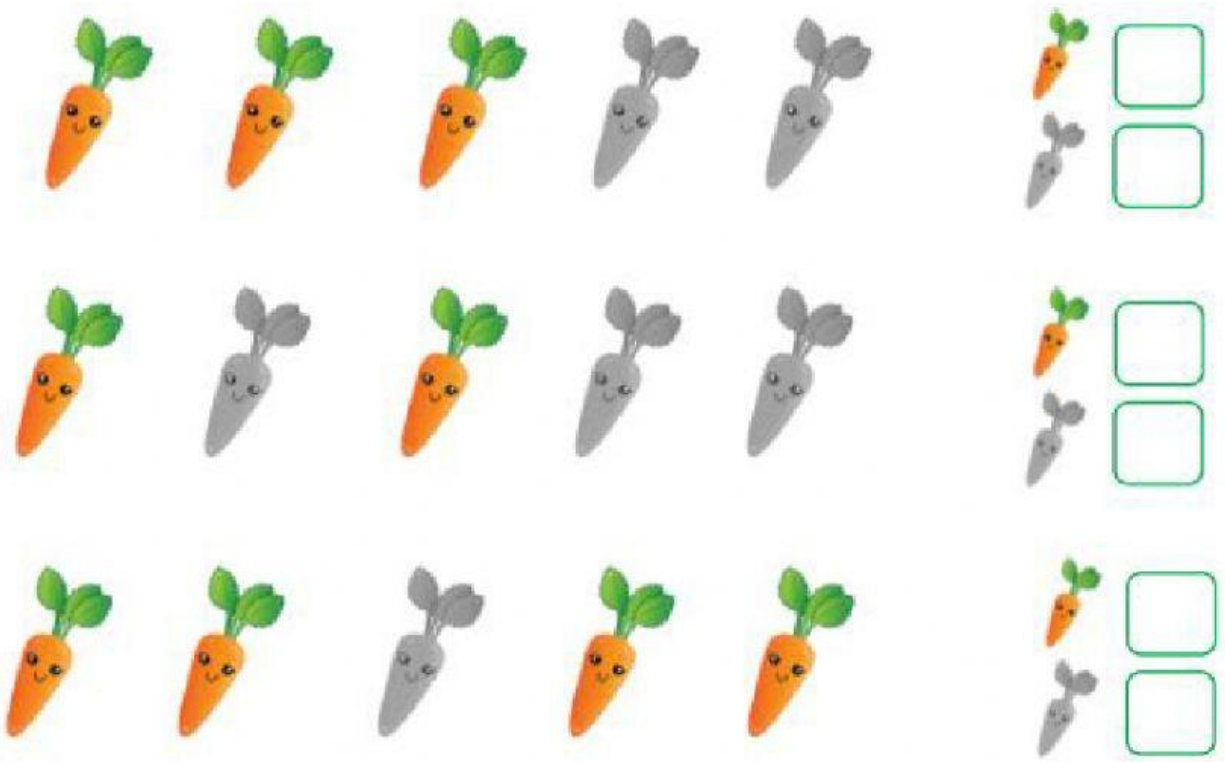

Bài 2 : Sắp xếp các số sau : **5** **4** **10** **1** **0** **3**

- **Theo thứ tự từ lớn đến bé :**

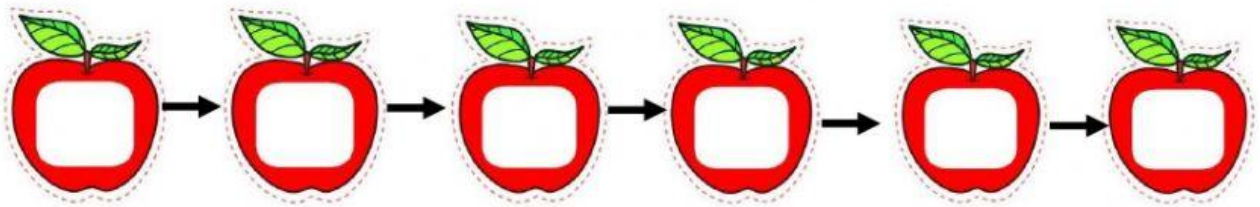

Bài 3 : Sắp xếp các số sau : **8** **4** **9** **5** **1** **10**

- **Theo thứ tự từ bé đến lớn :**

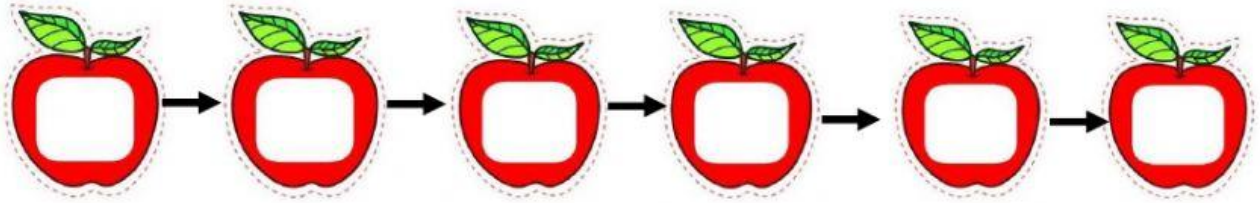

LIVEWORKSHEETS

Bài 4 : Điền dấu (>; <; =) vào ô trống

5 ○ 10	1 ○ 5	0 ○ 10
4 ○ 2	3 ○ 4	1 ○ 2
3 ○ 3	7 ○ 8	9 ○ 7
9 ○ 5	1 ○ 3	6 ○ 5
8 ○ 6	9 ○ 9	7 ○ 6

CLB Học toán cùng Jenny

Bài 5 : Hình bên có :

.....

.....

.....

.....

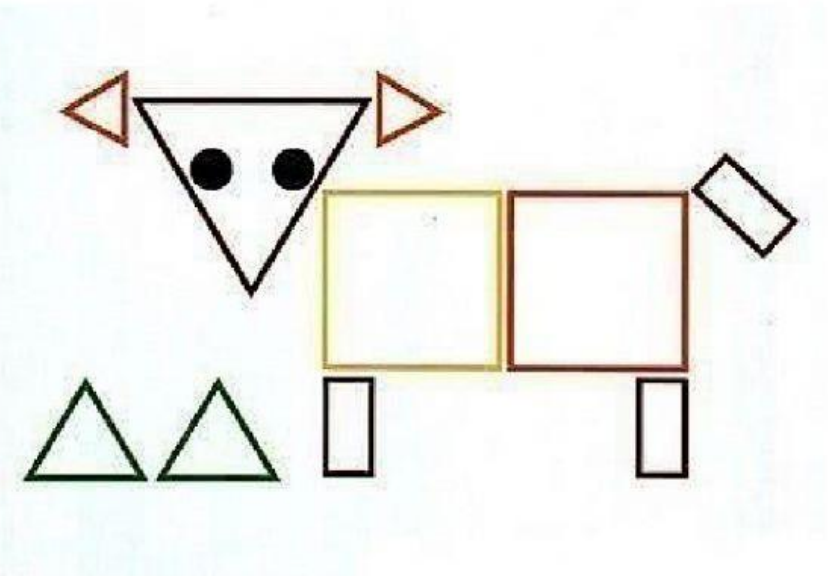

LIVEWORKSHEETS