Họ và tên:.....

Lớp:.....

PHẦN I. TRẮC NGHIỆM

Khoanh tròn trước chữ cái đặt trước câu trả lời đúng nhất hoặc hoàn thành theo yêu cầu:

Câu 1. Số liền trước của 80 là:

A. 79 B. 81 C. 90

Câu 2. Số bị trừ là 60, số trừ là 32. Hiệu là:

A. 92 B. 29 C. 28

Câu 3. Phép so sánh nào *chưa đúng*?

A. 1 dm = 10 cm

B. 27 + 13 = 40

C. 1 cm + 9 cm > 1 dm

PHẦN II. TỰ LUẬN

Câu 4. Đặt tính rồi tính:

29 + 38 5 + 25 100 – 19 92 - 2

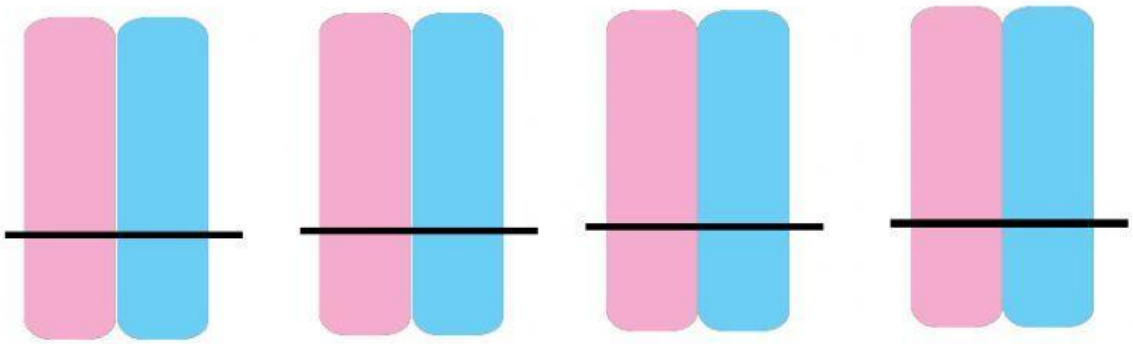

Câu 4.Nối theo mẫu:



LIVEWORKSHEETS

Câu 6. Vẽ đường thẳng đi qua hai điểm A và B.

Câu 7. Cho đường gấp khúc ABCD.

Độ dài của đường gấp khúc ABCD là:

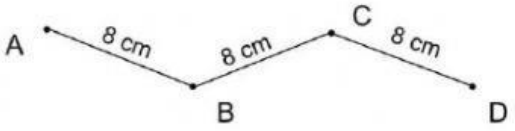

.....

Bài 3. Tìm hiểu về các con vật.

a) Thu thập:



b) Phân loại:

- Có mấy loài vật trong ảnh trên?

+ Có ……loài vật.

c) Kiểm đếm:

- Có …… con lợn (heo). - Có …… con chó. - Có …… cua.

- Có …… khỉ. - Có …… con hươu cao cổ

Câu 9. Con chó cân nặng 15kg, con thỏ nhẹ hơn con chó 8kg. Hỏi con thỏ cân nặng bao nhiêu ki-lô-gam?

Giải

.....

.....

.....

.....

LIVEWORKSHEETS