الاسم :

الدرس الخامس : مقارنة الكسور الاعتيادية والأعداد الكسرية

الفصل السادس

تريدُ رهفٌ أنْ تحضّرَ وصفةً تحتوي عَلَى $\frac{١}{٦}$ كوبٍ منَ السكّرِ وَ $\frac{٥}{٦}$ كوبٍ منَ الدقيقِ، فهلْ تحتاجُ رهفٌ إلى كميةٍ أكبرَ منَ السكّرِ أمْ منَ الدقيقِ؟

يبيّنُ النموذجُ المُجاوِرُ أنَّ. $\frac{١}{٦} < \frac{٥}{٦}$

يُمكِنُكَ أيضًا أنْ تستعملَ خطَّ الأعدادِ للمقارنةِ بينَ الكسورِ.

يوجدُ ٦ أقسامٍ متساويةٍ بينَ الصفرِ والعددِ ١.

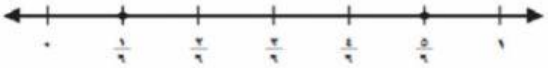

بِما أنَّ $\frac{٥}{٦}$ يقعُ عنْ يمينِ $\frac{١}{٦}$ علَى خطِّ الأعدادِ، فإنَّ $\frac{٥}{٦} > \frac{١}{٦}$ ؛

إذنْ تَحتاجُ رهفٌ دقيقًا أكثرَ منَ السكرِ.

أختر الإجابة الصحيحة لما يلي:

١ استعملْ خطَّ الأعدادِ للمقارنةِ بينَ العددينِ فِي كلٍّ ممَّا يأْتِي مُستعملًا (> ، < ، =):

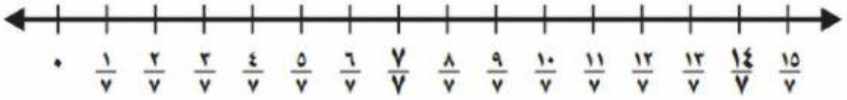

$١\frac{١}{٧}$ ◯ $٢\frac{١}{٧}$

أ	<	ب	>	ج	=

٢ $١\frac{١}{٩}$ ◯ $\frac{٨}{٩}$

أ	<	ب	>	ج	=

٣ اكْتُبِ الكسرَ أوِ العددَ الكسْريَّ المُمثَّلَ بكلِّ نقطةٍ فيمَا يأْتِي:

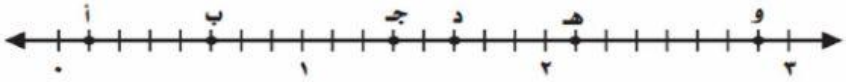

هـ ____

أ	هـ = $١\frac{٧}{٨}$	ب	هـ = $١\frac{٣}{٨}$	ج	هـ = $٢\frac{١}{٨}$

اجب عما يلى

وصفةٌ: تحتاجُ وصفةٌ لعملِ شَرابِ الليمونِ إلى $\frac{١١}{٤}$ كوبٍ منْ عَصيرِ الليمونِ وَ $٢\frac{١}{٤}$ كوب منَ الماءِ.

فأيُّهما تحتاجُ أكثرَ؛ عصيرُ الليمونِ أم الماءُ؟ فَسِّرْ إجابَتكَ.

المعلمة: عواطف الجربوع

LIVEWORKSHEETS