ஒரு மதிப்பெண் வினாத்தேர்வு

பத்தாம் வகுப்பு - கணிதம்

பாடம் - 4 (தேர்வு - 2)

தயாரிப்பு : ப. இளங்கோவன்
பட்டதாரி ஆசிரியர் , அரசு மேல்நிலைப் பள்ளி , கோலியனூர். விழுப்புரம் மாவட்டம்

1 ΔABC-யில் AD ஆனது, $\angle BAC$-யின் இருசமவெட்டி. $AB = 8$ செ.மீ, $BD = 6$ செ.மீ மற்றும் $DC = 3$ செ.மீ எனில், பக்கம் AC-யின் நீளம்

(1) 6 செ.மீ (2) 4 செ.மீ (3) 3 செ.மீ (4) 8 செ.மீ

2 O-வை மையமாக உடைய வட்டத்திற்கு, வெளியேயுள்ள புள்ளி P-யிலிருந்து வரையப்பட்ட தொடுகோடுகள் PA மற்றும் PB ஆகும். $\angle APB = 70^\circ$ எனில், $\angle AOB$ -யின் மதிப்பு

(1) 100° (2) 110° (3) 120° (4) 130°

3 $\frac{AB}{DE} = \frac{BC}{FD}$ எனில், ABC மற்றும் EDF எப்பொழுது வடிவொத்தவையாக அமையும்.

(1) $\angle B = \angle E$ (2) $\angle A = \angle D$ (3) $\angle B = \angle D$ (4) $\angle A = \angle F$

4 6 மீ மற்றும் 11 மீ உயரமுள்ள இரு கம்பங்கள் சமதளத் தரையில் செங்குத்தாக உள்ளன. அவற்றின் அடிகளுக்கு இடையேயுள்ள தொலைவு 12 மீ எனில் அவற்றின் உச்சிகளுக்கு இடையே உள்ள தொலைவு என்ன?

(1) 13 மீ (2) 14 மீ (3) 15 மீ (4) 12.8 மீ

5 படத்தில் O-வை மையமாக உடைய வட்டத்தின் தொடுகோடுகள் CP மற்றும் CQ ஆகும். ARB ஆனது வட்டத்தின் மீதுள்ள புள்ளி R வழியாகச் செல்லும் மற்றொரு தொடுகோடு ஆகும். $CP = 11$ செ.மீ மற்றும் $BC = 7$ செ.மீ, எனில் BR –யின் நீளம்

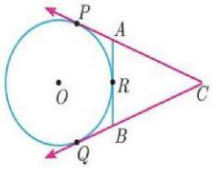

(1) 6 செ.மீ (2) 5 செ.மீ

(3) 8 செ.மீ (4) 4 செ.மீ

6 கொடுக்கப்பட்ட படத்தில், $PR = 26$ செ.மீ, $QR = 24$ செ.மீ, $\angle PAQ = 90^\circ$, $PA=6$ செ.மீ மற்றும் $QA = 8$ செ.மீ எனில் $\angle PQR$ –ஐக் காண்க.

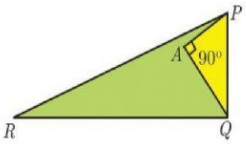

(1) 80° (2) 85° (3) 75° (4) 90°

7 இரு வடிவொத்த முக்கோணங்கள் ΔABC மற்றும் ΔPQR –யின் சுற்றளவுகள் முறையே 36 செ.மீ மற்றும் 24 செ.மீ ஆகும். $PQ = 10$ செ.மீ எனில், AB–யின் நீளம்

(1) $6\frac{2}{3}$ செ.மீ (2) $\frac{10\sqrt{6}}{3}$ செ.மீ (3) $66\frac{2}{3}$ செ.மீ (4) 15 செ.மீ

8 படத்தில் உள்ளவாறு O-வை மையமாகக் கொண்ட வட்டத்தின் தொடுகோடு PR எனில், $\angle POQ$ ஆனது

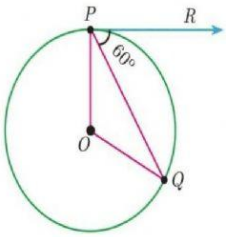

(1) 120° (2) 100°

(3) 110° (4) 90°

9 இருசமபக்க முக்கோணம் ΔABC-யில் $\angle C = 90^\circ$ மற்றும் $AC = 5$ செ.மீ, எனில் AB ஆனது

(1) 2.5 செ.மீ (2) 5 செ.மீ (3) 10 செ.மீ (4) $5\sqrt{2}$ செ.மீ

10 ΔABC –யில் $DE \parallel BC$. $AB = 3.6$ செ.மீ, $AC = 2.4$ செ.மீ மற்றும் $AD = 2.1$ செ.மீ எனில், AE –யின் நீளம்

(1) 1.4 செ.மீ (2) 1.8 செ.மீ (3) 1.2 செ.மீ (4) 1.05 செ.மீ

LIVEWORKSHEETS