EVEILSCIENTIFIQUE

Le cycle de vie des végétaux

1) Place ces étiquettes au bon endroit!

floraison pistil germination étamine pollinisation

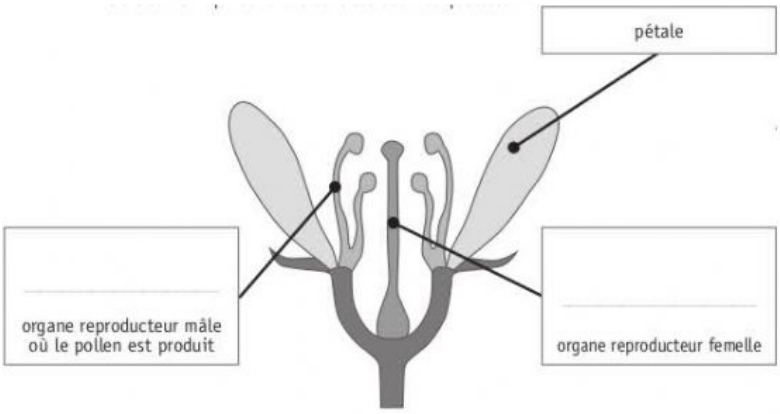

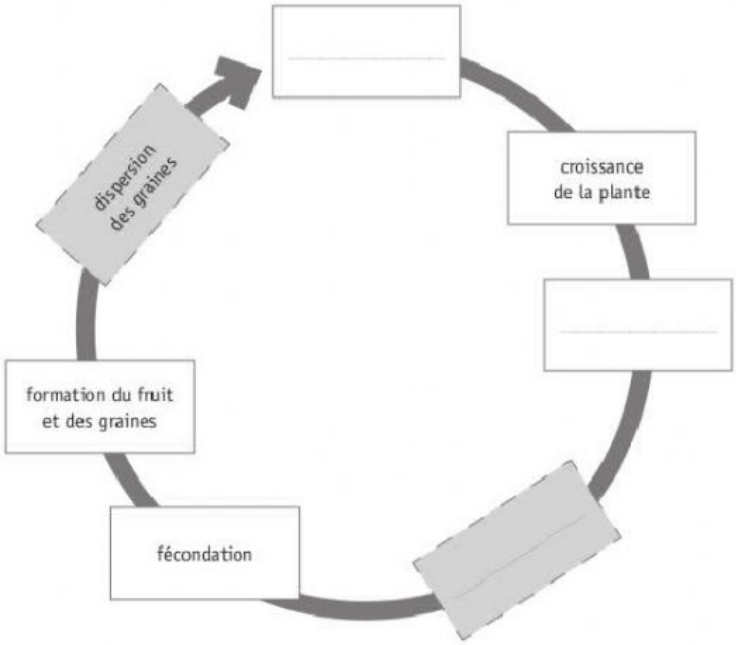

2) COCHE

La pollinisation, c'est :

☐ la fabrication du pollen par la fleur.

☐ le transport des grains de pollen des étamines sur le pistil.

☐ la transformation de la graine en fruit grâce aux abeilles.

☐ la formation des graines.

LIVEWORKSHEETS

3) Replace les mots au bon endroit!

FLEUR - GRAINE - FRUIT - GRAINE GERMEE

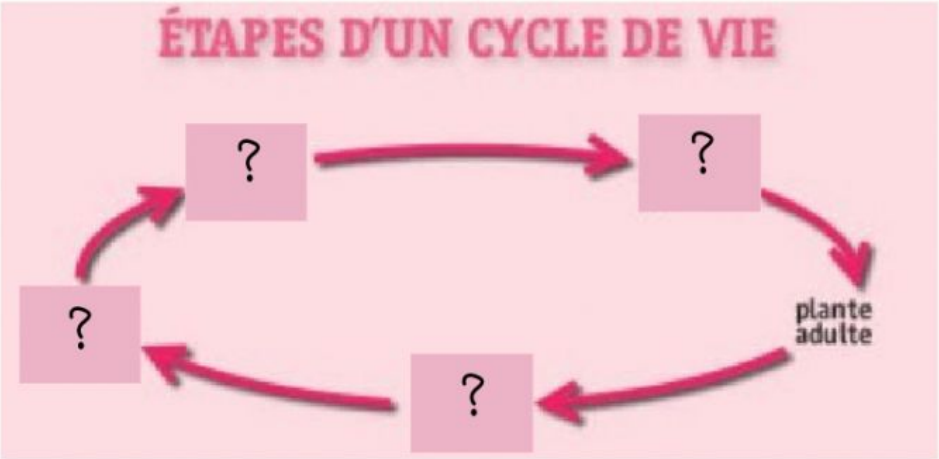

4) Dans chaque cadre, écris la lettre correspondant à l'étape du cycle de cette plante.





A Dispersion des graines

B Floraison

C Germination

D Pollinisation et fécondation

E Formation du fruit

LIVEWORKSHEETS

5) Place chaque lettre au bon endroit! Attention, une lettre devra être placée deux fois!

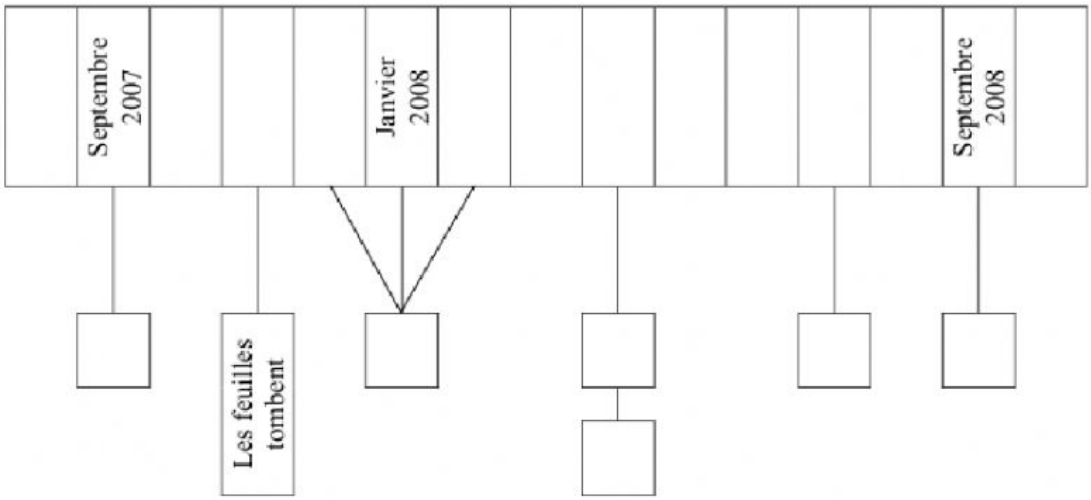

A. Les feuilles apparaissent sur le poirier et se développent.

B. Il n'y a ni fleur ni fruit sur le poirier.

C. On cueille les poires.

D. Les fleurs apparaissent sur le poirier.

E. De toutes petites poires apparaissent sur le poirier.

5) Observe ces 5 photos et coche la proposition exacte!

pommes de pin

cerises

gland

noisettes

tomates

- ☐ Les 5 photos sont des photos de fruits.
- ☐ 4 photos sur les 5 sont des photos de fruits.
- ☐ 3 photos sur les 5 sont des photos de fruits.
- ☐ 2 photos sur les 5 sont des photos de fruits.
- ☐ Une seule photo est la photo d'un fruit.

LIVEWORKSHEETS