ÔN TẬP MÔN TOÁN – LỚP 1A2

1 Tính:

5 + 3 = ... 3 + 4 = ... 5 + 2 = ... 10 – 0 = ...

8 – 5 = ... 8 – 1 = ... 7 – 2 = ... 9 – 3 = ...

2 Tính:

8 – 3 – 2 = ... 9 – 5 + 4 = ...

4 + 2 + 1 = ... 7 + 3 – 0 = ...

3 Viết dấu +, – vào mỗi hình tròn để có các phép tính đúng:

5 ◯ 1 = 6 9 ◯ 1 = 8 3 ◯ 1 = 4

6 ◯ 2 = 4 5 ◯ 1 = 4 3 ◯ 2 = 5

3 ◯ 3 = 6 3 ◯ 1 = 2 8 ◯ 1 = 7

4 > < = ?

3 + 5 ☐ 6 8 – 6 ☐ 0 5 + 5 ☐ 10

7 – 0 ☐ 7 4 + 4 ☐ 9 2 – 2 ☐ 2

LIVEWORKSHEETS

Bài 5: Nối phép tính thích hợp với mỗi tranh vẽ



Bài 6: Số?

Hình A có:

☐ khối hộp chữ nhật

☐ khối lập phương

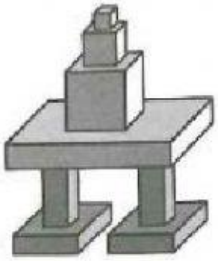

A

Hình B có:

☐ khối hộp chữ nhật

☐ khối lập phương

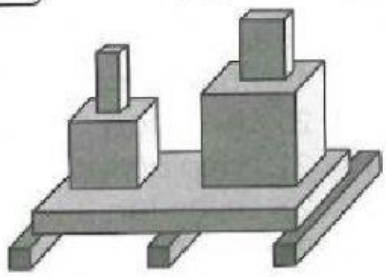

B

LIVEWORKSHEETS