Expresiones Algebraicas Equivalentes

¿Cuál es el perímetro y área de la figura del terreno irregular?

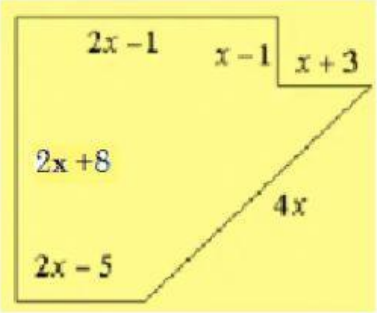

Perímetro: _____

Área: _____

Las dimensiones de un terreno rectangular son de largo 2x+7 y de ancho x-5, obtener 2 expresiones algebraicas para calcular el perímetro y área

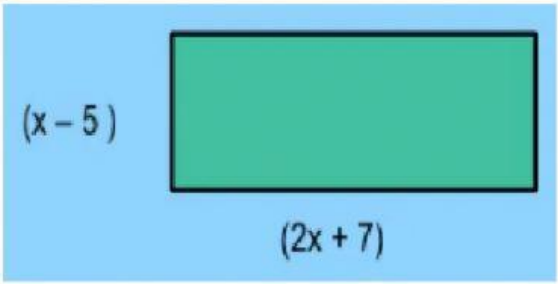

Perímetro	Área

Encuentra 2 expresiones algebraicas equivalentes para determinar el perímetro y área del rombo.

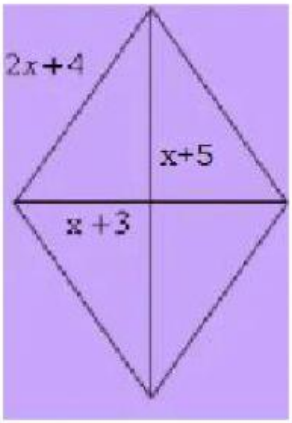

Perímetro	Área

LIVEWORKSHEETS

¿Cuál es la expresión algebraica que representa el área de un patio de escuela?

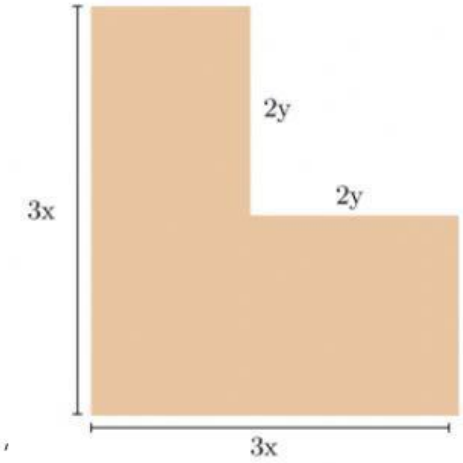

- $6x^2 - 4y^2$
- $6x^2 - 2y^2$
- $6x^2 + 4y^2$
- $9x^2 - 4y^2$

¿Cuál es el área de la superficie lila?

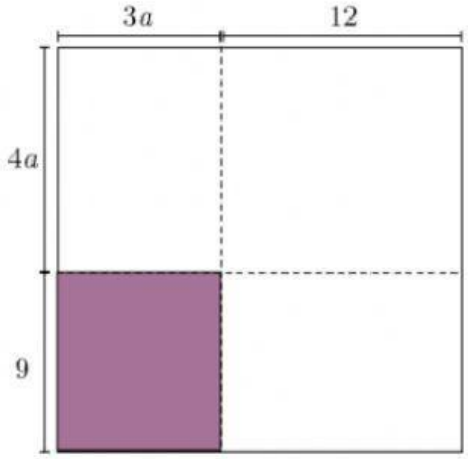

- $36a^2$
- $13.5a^2$
- $27a$
- $48a^2$

LIVEWORKSHEETS