UK ACADEMY

Họ và tên: .....
Lớp: .....
Thứ ....., ngày ... tháng ... năm 2021

ĐỀ TUYỂN SINH - NĂM HỌC : 2021 – 2022
MÔN: TOÁN – LỚP 1
Thời gian: 35 phút

Giám thị:

Điểm	Nhận xét
	.....
	.....

1 Số?

... + ... = ...

... + ... = ...



... + ... = ...

... + ... = ...

... + ... = ...

... + ... = ...

2 Tính nhẩm

1 + 4 =...

5 + ... = 6

3 + 4 = ...

9 + ... = 9

7 + 2 = ...

... + 1 = 8

3 Kéo thả cây nấm vào đúng giỏ

5 + 2

7 + 2

7 + 0

4 + 5

6 + 1

1 + 8

4 + 3

9 + 0

7

5 + 4

9

3 + 4

LIVEWORKSHEETS

4 Đúng chọn Đ, sai chọn S

10 + 0 > 10	9 = 2 + 7
3 + 4 < 5	6 + 1 < 6 + 2
5 + 3 = 3 + 5	7 = 5 + 2

5 Viết số thích hợp vào ô trống (theo mẫu)

8	9	10
0 + 8	0 + ...	9 + ...
1 + ...	1 + ...	... + 2
... + 6	... + 7	7 + ...
3 + ...	3 + ...	6 + ...
4 + ...	4 + ...	... + 5

6 Viết phép tính thích hợp với mỗi tranh vẽ



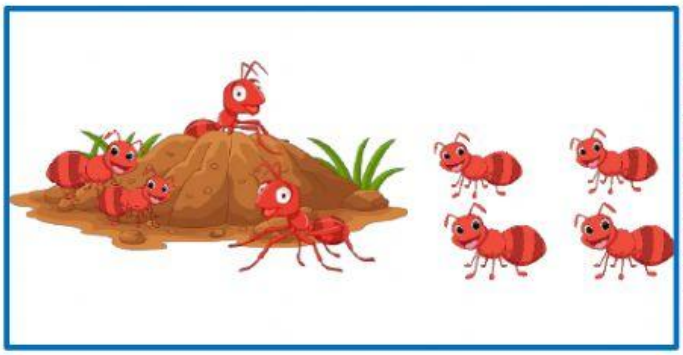

LIVEWORKSHEETS