Nombre: _____ Fecha: _____

Repaso MATES UD4

En esta unidad de Matemáticas has aprendido:

- Los números del 200 al 399.
- Los polígonos, el círculo y la circunferencia.
- **Restas llevando** con números de dos cifras.
- Interpretar croquis.
- Resolver problemas de resta (¿Cuántos.....más que?)

1 **Completa.**

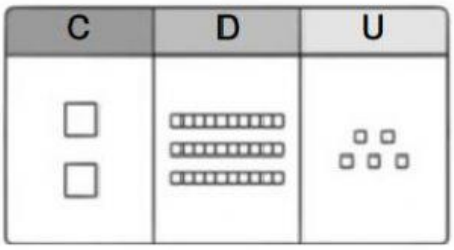

___ C + ___ D + ___ U

___ + ___ + ___ = ___

___ ▶ _____.

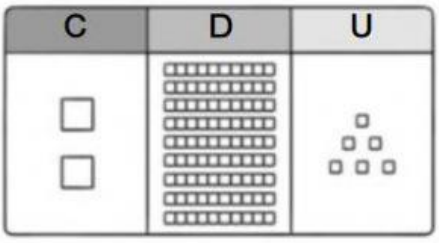

___ C + ___ D + ___ U

___ + ___ + ___ = ___

___ ▶ _____.

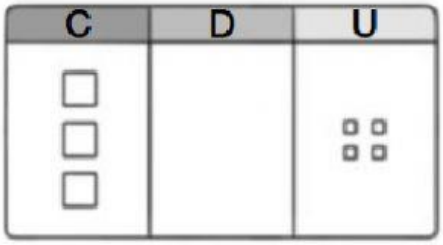

___ C + ___ U

___ + ___ = ___

___ ▶ _____.

@claulomeicadexandre
LIVEWORKSHEETS

2 **Realiza estas restas.**

85 - 68

74 - 36

56 - 27

43 - 15

94 - 75

62 - 17

54 - 28

96 - 58

3 **Pincha en la opción correcta.**

Un polígono	Un círculo	Una circunferencia
		

4 **Hay 35 bolas rojas y 18 verdes para el árbol de Navidad del colegio. ¿Cuántas bolas rojas más que verdes hay?**

Datos ▶ ☐ y ☐

Operación ▶

Solución ▶

LIVEWORKSHEETS