ХЭРЛЭН СУМЫН 12 ДУГААР СУРГУУЛИЙН V АНГИЙН МАТЕМАТИКИЙН ХИЧЭЭЛИЙН “ӨГӨГДӨЛТЭЙ АЖИЛЛАХ” СЭДВИЙН ДАСГАЛ АЖИЛ

1. Өгөгдлийн арифметик дунджийг олоорой.
   482 , 390 , 586 , 497 , 865

   А. 586 Б. 564 В. 390 Г. 5

2. Хэд хэдэн тооны нийлбэрийн утгыг нэмэгдэхүүний тоонд хуваахад гарсан ..... тоонуудын арифметик дундаж гэнэ.

   Үржвэрийг ялгаврыг ногдворыг нийлбэрийг

3. Дараах диаграммыг зөв холбоорой.

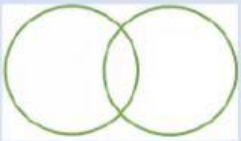

Карролын

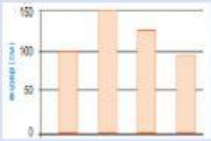

Дугуй

	Хоёрт хуваагдах	Гуравт хуваагдах
2 оронтой		
3 оронтой		

Эйлер- Веннийн

Баганан

4. 8 бөх тойргийн журмаар бөх барилдах болов.Хэдэн барилдаан болох вэ?

   А. 28 Б. 64 В. 28 Г.56

5. Зарим саруудад орсон хур тундасны дундаж хэмжээг хүснэгтээр үзүүлэв. Хамгийн их , хамгийн бага хур тундасны зөрөөг олоорой.

IV сар	V сар	VI сар	VII сар	VIII сар	IX сар
100	140	160	100	120	80

   А. 80 Б. 40 В 100 Г. 20

6. Дараах тоонуудын далайцыг олоорой.
   36 , 48 , 24 , 50 , 48 , 94

   А. 24 Б. 48 В. 50 Г.70

LIVEWORKSHEETS

7.Дараах тоонуудыг карроллын диаграммд ангилжээ. буруу ангилсан тоог олоорой.

15 653 28 213 352 803 99

	Хоёрт хуваагдах	Гуравт хуваагдах
2 оронтой		
3 оронтой		

7. Шоог зэрэг орхиход буусан нүдний үржвэр 12 гарах боломж хэд вэ?

А. 36 Б.12 В. 4 Г.8

8. Доржийн ээжийн тарьсан хүнсний ногоог

Дүрсээр илэрхийлээрэй. – дүрс нь 60 кг бол -тай тэнцүү.

Хүнсний ногоо	Ногооны жин	Дүрсээр илэрхийлэх
Төмс	240 кг	
Лууван	180кг	
Байцаа	270 кг	

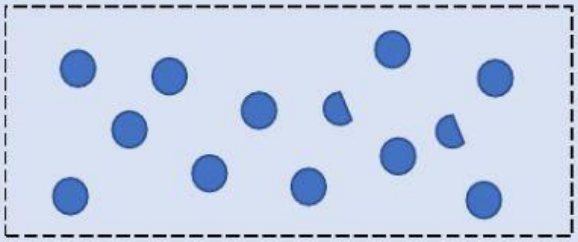

9. Хамгийн их ба хамгийн бага жинтэй ногооны зөрөөг дүрсээр илэрхийлээрэй.

Хамгийн их ба хамгийн бага тоотой ногооны зөрөө-

10 . Зургаан сурагч тоглоом тогложээ. Тоглоомын дүнг баганан диаграммаар үзүүлэв.

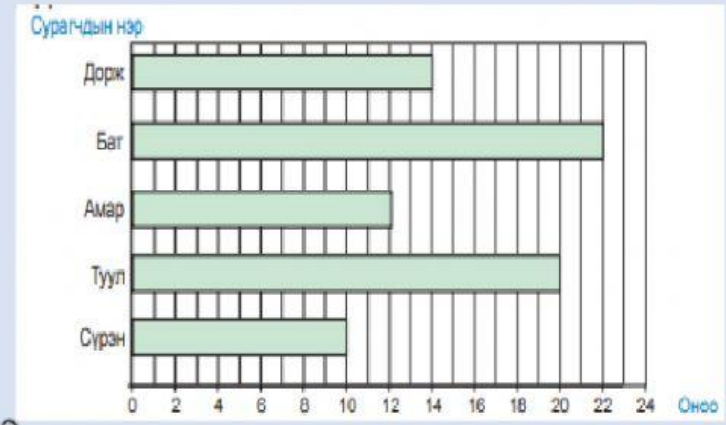

А.Хэн хамгийн бага оноо авсан бэ?

.....

Б. Тоглоомын далйцыг олоорой.

.....

LIVEWORKSHEETS