EXAMEN TRIMESTRAL 2°
MATEMÁTICAS

(1) Observa los dibujos.
Completa los espacios en blanco.

(a)

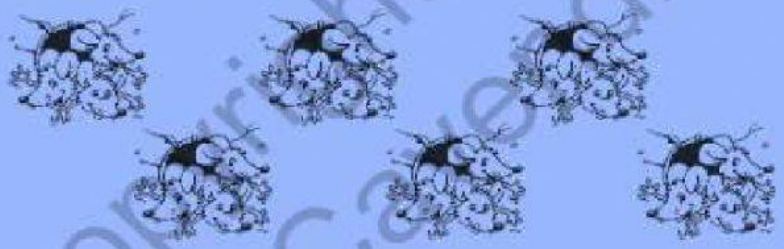

6 veces 3 → _____ 6 × 3 = _____

(b)

5 grupos de 4 monos → _____

5 × 4 = _____

Copyright Marshall Cavendish

TABLA DEL 3

Colorea los resultados de la tabla del 3.

6	5	24	4	9
15	3	12	18	3
16	21	18	6	27
30	15	7	13	16

Completa la serie numérica y escribe el resultado de las multiplicaciones.

3 _____ _____ _____ 15 _____ _____ _____ _____ _____

LIVEWORKSHEETS

TABLA DEL 5

Une con una línea la multiplicación con el resultado.

5 x 1 =	15
5 x 8 =	45
5 x 9 =	10
5 x 5 =	30
5 x 4 =	35
5 x 6 =	50
5 x 10 =	25
5 x 2 =	40
5 x 3 =	20
5 x 7 =	5

Completa el círculo multiplicando el número del centro por el anillo intermedio para conseguir los números externos.

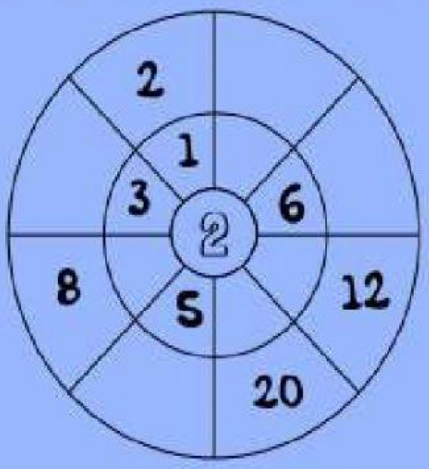

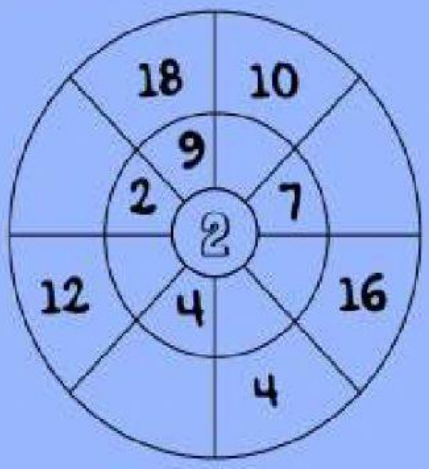

Escribe el número que falta.

2 x ☁ = 18

2 x ☁ = 14

2 x ☁ = 10

2 x ☁ = 16

LIVEWORKSHEETS

Encuentra la cantidad de objetos en cada grupo.

(a) Separa 10 caracoles en 2 grupos iguales.

10 : _____ = _____

Hay _____ caracoles en cada grupo.

(b) Reparte 15 libros en 3 grupos iguales.



15 : _____ = _____

Hay _____ libros en cada grupo.

Reparte 20 naranjas en platos de 5 naranjas.

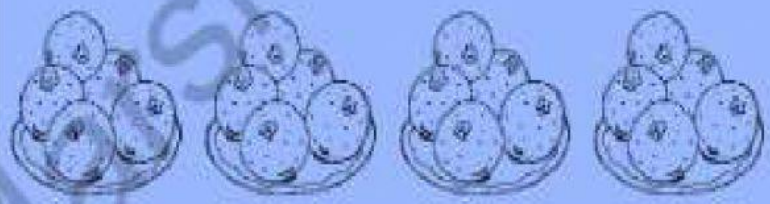

20 : _____ = _____

Hay _____ platos de 5 naranjas.

Copyright Marshall Cavendish

LIVEWORKSHEETS