KEMENTERIAN PENDIDIKAN, KEBUDAYAAN,
RISET DAN TEKNOLOGI
SEKOLAH INDONESIA KOTA KINABALU
No. 1, Jalan 3B, KKIP Selatan 88450, Kota Kinabalu, Sabah Malaysia
☎ 088-492-600, 088-492-601 Fax 088-492-602 Website : http://sikk.sch.id

PENILAIAN AKHIR SEMESTER
TAHUN PELAJARAN 2021/2022

KELAS : 1 (SATU)
TEMA :1(DIRIKU)
ALOKASI WAKTU :90 MENIT

Berilah tanda silang (X) pada jawaban yang paling benar pada huruf A, B, atau C!

1. Perhatikan gambar di bawah ini!

Bayu dan teman-temannya saling….
   A. menyayangi
   B. membenci
   C. memusuhi

2. Perhatikan gambar di bawah ini!

Sebelum dan sesudah selesai belajar Edo dan teman- temannya selalu ….
   A. memberi salam kepada guru
   B. berdoa
   C. sarapan pagi

3. Perhatikan gambar di bawah ini

Lani rajin membantu …. Rumah
   A. merusak
   B. mengotori
   C. membersihkan

LIVEWORKSHEETS

4. Perhatikan gambar di bawah ini!

Sebelum masuk ke kelas, anak-anak kelas satu selalu ….

A. salam kepada guru
B. bermain
C. makan

5. Perhatikan gambar di bawah ini!

Edo dan Budi memiliki fisik dan kegemaran yang berbeda, tapi mereka berdua tetap saling ….

A. membeda-bedakan
B. menghargai
C. menjauhi

6. Perhatikan gambar di bawah ini!

Kalimat tanya yang benar untuk gambar di atas adalah ….

A. dimana rumahmu?
B. siapa namamu?
C. siapa nama gurumu?

LIVEWORKSHEETS

8.
7. Perhatikan gambar dibawah ini!

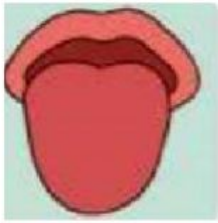

Gambar diatas adalah….

A. telinga
B. mulut
C. Lidah

8. Supaya mata tidak rusak, kita harus membaca di tempat yang ….

A. terang
B. gelap
C. Kotor

9. Setiap hari kita mandi agar badan kita selalu ….

A. bersih
B. kotor
C. basah

10. Perhatikan gambar dibawah ini

Nama bilangan diatas jika ditulis adalah ....

A. dua puluh
B. dua puluh Satu
C. dua puluh dua

LIVEWORKSHEETS

11. Perhatikan gambar di bawah ini!

Berapakah jumlah banyak buku diatas....

A. 18
B. 19
C. 20

12. Hasil penjumlahan dari 40+9 adalah ….

A. 47
B. 49
C. 36

13. Hasil pengurangan dari 45-10 adalah ….

A. 15
B. 25
C. 35

14. Perhatikan gambar dibawah ini

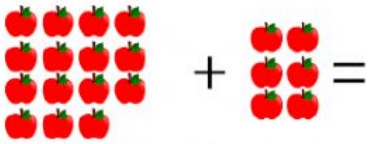

Hasil penjumlahan buah apel diatas adalah....

A. 21
B. 22
C. 2



Perhatikan gambar di atas

15. buah apel lebih ..... dari buah mangga

A. sama
B. banyak
C. sedikit

LIVEWORKSHEETS

.

16.. Perhatikan gambar di bawah ini

Anak-anak kelas satu belajar membuat lukisan dengan menggunakan ….

A. kuas
B. pensil warna
C. jari

17. Perhatikan gambar dibawah ini



Hiasan gambar diatas terbuat dari ...

A. kertas
B. daun
C. telur

18. Perhatikan gambar di bawah ini

Gambar kolase di samping membentuk binatang ....

A. ayam
B. bebek
C. gajah

LIVEWORKSHEETS

19. Perhatikan gambar dibawah ini

gambar di atas adalah gerakan tari menggerakan …

A. kaki
B. tangan
C. mata

20. Perhatikan gambar di bawah ini

Andi sedang ....

A. memasak
B. memancing
C. Melukis

21. Perhatikan gambar dibawah ini

Setiap pagi Dodi selalu..... pagi

A. Lari
B. Tidur
C. berenang

LIVEWORKSHEETS

22. Perhatikan gambar dibawah ini

Budi dan teman-temannya berjalan dengan tegak agar tubuh ….

A. jatuh
B. seimbang
C. sakit

23. Perhatikan gambar dibawah ini

Gambar diatas adalah anak sedang melakukan ....

A. pemanasan
B. makan
C. lari

24. Perhatikan gambar dibawah ini

Perhatikan gambar di atas

Edo dan teman teman sedang berolahraga ....

A. renang
B. sepakbola
C. bola tangan

LIVEWORKSHEETS

25. Perhatikan gambar dibawah ini

Andi sedang ....

A. tidur
B. lari
C. duduk

26. Perhatikan gambar dibawah ini

Sebelum makan, kita seharusnya….

A. bernyanyi
B. berlari
C. berdoa

27. Perhatikan gambar di bawah ini

Kalimat yang sesuai dengan gambar adalah ....

A. ibu sedang belanja di pasar
B. ibu sedang memasak
C. ibu sedang mencuci baju

LIVEWORKSHEETS

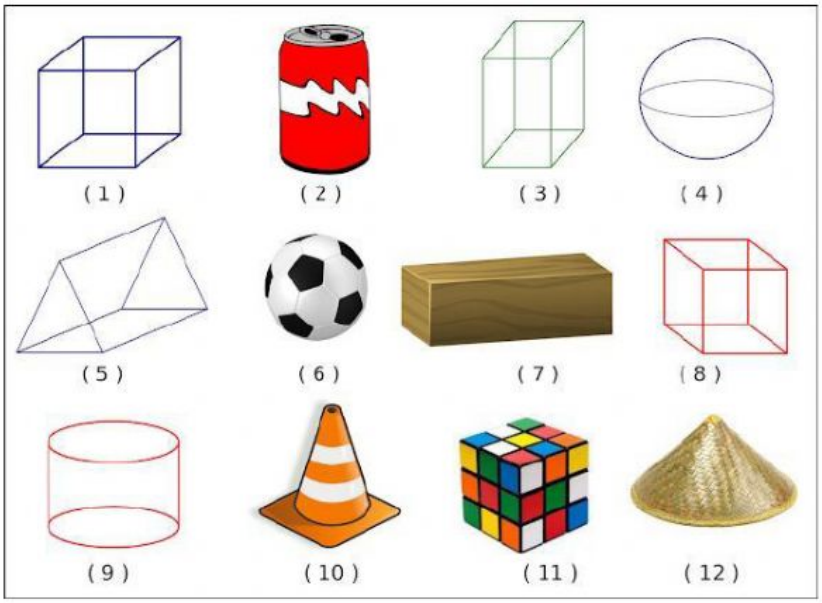

Gambar nomor 1 berbentuk …

A. tabung
B. kubus
C. Kerucut

29. Perhatikan gambar!

Perhatikan gambar diatas,kolase dibuat dengan cara….

A. menggunting dan menempel
B. menggunting dan mencetak
C. melukis dan mencetak

30. Perhatikan gambar di bawah ini

Gambar diatas adalah gerakan ....

A. membungkuk
B. Merunduk
C. mencium lutut

LIVEWORKSHEETS