UPSR 习题区

A 圈出正确的答案。

1. 什么是面积？

A 物体占据空间的大小
B 两个点之间的距离
C 物体所含物质的量
D 物体表面的大小

2. 以下哪个不是测量面积的单位？

A 平方米　　**B** 平方厘米
C 立方厘米　　**D** 平方公里

3. 图 1 显示一个图形。

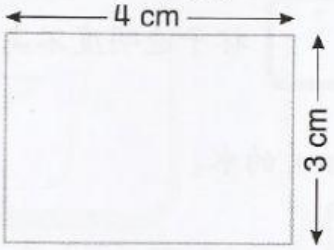

图 1

小青在图形里铺满 1 cm × 1 cm 的小正方格，他需要多少张小正方格？

A 3　　**B** 4
C 7　　**D** 12

4. 图 2 显示一个装有小正方体的盒子。

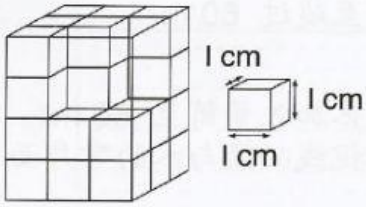

图 2

还需要多少个小正方体才能填满盒子？

A 4　　**B** 6
C 9　　**D** 36

5. 以下哪个是烧杯？

A

B

C

D

6. 下面显示用排水法来测量一块橡皮的体积所得到的数据。

水的体积	100 mℓ
橡皮和水的总体积	150 mℓ
橡皮的体积	M cm^3

M 的值是多少？

A 50　　**B** 100
C 150　　**D** 250

7. 如果病人没有按照一定的剂量来吃药物，将会怎样？

A 会危害到健康
B 浪费金钱买药物
C 病很块就会好起来
D 没有任何的副作用

LIVEWORKSHEETS

B 回答以下的问题。

1. 图 1 显示哲宇想要用杯子测量 60 mℓ 的水。

图 1

(a) 用这种方法能准确地测量瓶子里水的体积吗？在空格里画 ✓。

☐ 能　　☐ 不能

把你的理由画 ✓。

☐ 杯子外没有刻度　　☐ 杯子透明度不高

(b) 君馨则要用以下的工具来测量 60 mℓ 的水。

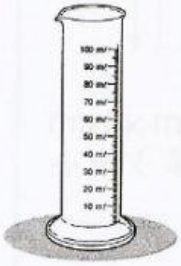

把正确的步骤说明画 ✓。

i. 她的第一个步骤必须是把量筒放在平坦的表面上。... ☐

ii. 第二个步骤才把水倒入量筒至超过 60 mℓ。..... ☐

iii. 最后，她用滴管慢慢地将液体加入量筒至 60 mℓ。在进行这个步骤时，君馨的视线必须与水的弯月面平行。..... ☐

LIVEWORKSHEETS