## *EJERCICIO DEMOSTRACIÓN*

1.- Escribe la posición en número decimal en que se localiza la estrella y el triángulo.

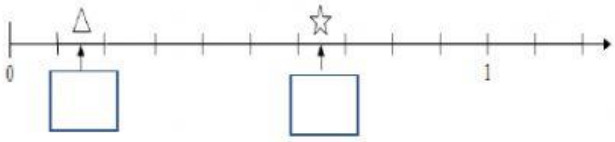


2.- Selecciona la opción que corresponde al valor de x, si el perímetro del siguiente cuadrado es 120cm.



(3x + 3) cm

x= 9 x=10 x= 12 x= 15

3.- Observa la siguiente recta y selecciona la respuesta que representa la fracción correcta, dando click en el recuadro para ver las opciones:

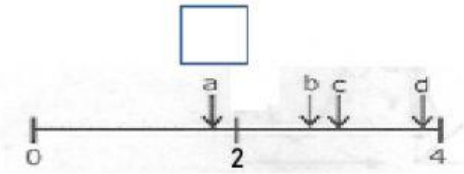


4.- Si 1 libra equivale a 0.454 kg, relaciona las equivalencias correctas:

| | |
|---|---|
| 54.43 kg | 1000.00 lbs |
| 454.00 kg | 119.88 lbs |
| 8.767 kg | 22.02 lbs |
| 10.00 kg | 19.331 lbs. |

5. Identifica las partes de la potencia, arrastrando y soltando en el recuadro la respuesta correcta :

$$5^{3} = 125$$

Exponente Base Potencia

LIVEWORKSHEETS