ΦΥΛΛΟ ΕΡΓΑΣΙΑΣ : ΠΑΡΑΠΛΗΡΩΜΑΤΙΚΕΣ ΓΩΝΙΕΣ

Υπολογίστε χωρίς να μετρήσετε τις γωνίες χ στα παρακάτω σχήματα :

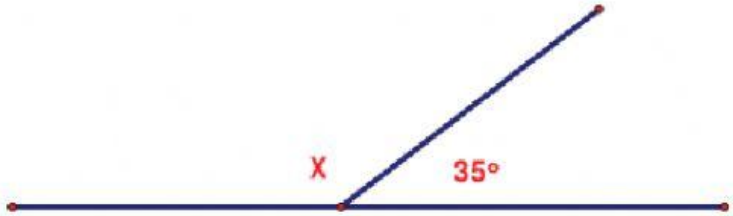

.....

.....

.....

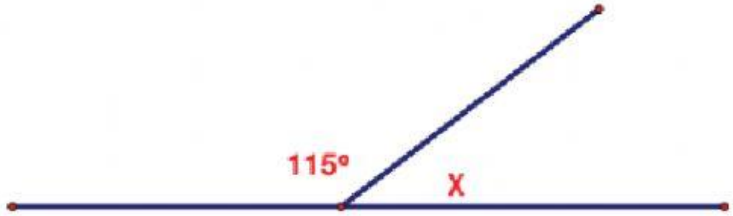

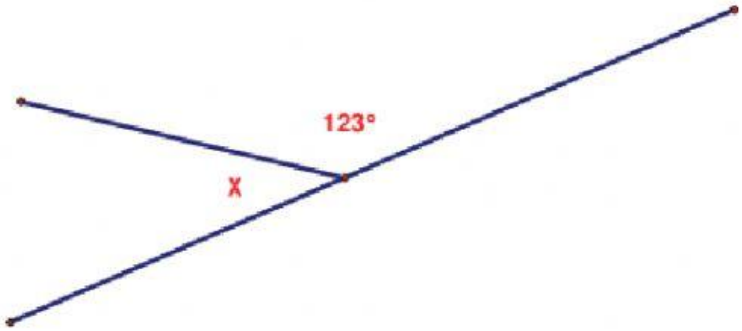

Να βρείτε δύο παραπληρωματικές γωνίες όταν η μία είναι :

Α. τριπλάσια από την άλλη

Β. τα $\frac{2}{3}$ της άλλης.

LIVEWORKSHEETS