ΦΥΛΛΟ ΕΡΓΑΣΙΑΣ : ΕΦΕΞΗΣ ΓΩΝΙΕΣ

Σε καθένα από τα παρακάτω σχήματα υπάρχουν δύο γωνίες φ , ω.
Συμπλήρωσε τα κενά στις παρακάτω προτάσεις και δικαιολόγησε τις απαντήσεις σου.

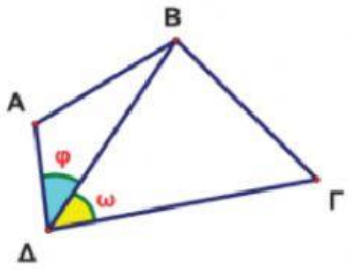

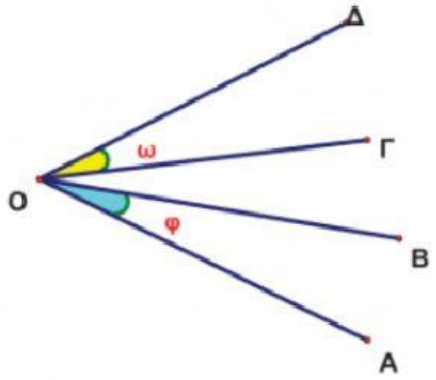

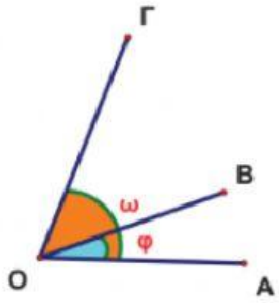

Έχουν κοινή την……..

……..

και την …….

……..

και κανένα άλλο ……

……..

Έχουν κοινή μόνο

……

……

και κανένα άλλο ……

……

……

Έχουν κοινή την …

……

……

και ……..

……

……..

Να βρείτε όλα τα ζεύγη από εφεξής γωνίες στα παρακάτω σχήματα:

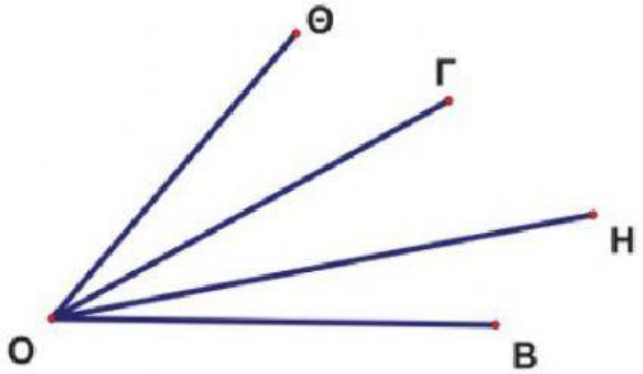

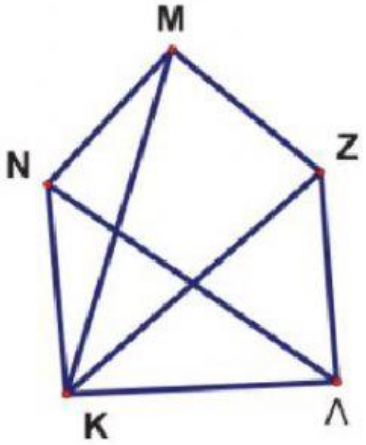

LIVEWORKSHEETS