Evaluación sumativa de EMAT

Tercero de básica

Fecha:

Nombre:

1. Resuelve. Fíjate en los signos.

3 7	3 3
+ 1 9	– 2 5

2. Cuenta, agrupa de diez en diez y completa.



__ canastas.

__ decenas y__unidades.

LIVEWORKSHEETS

3. ¿Qué hora es?

4. Selecciona la figura que cumpla con la fracción que se pide.

$\frac{3}{4}$



5. Observa el siguiente cartel. Usa la gráfica para responder las preguntas.

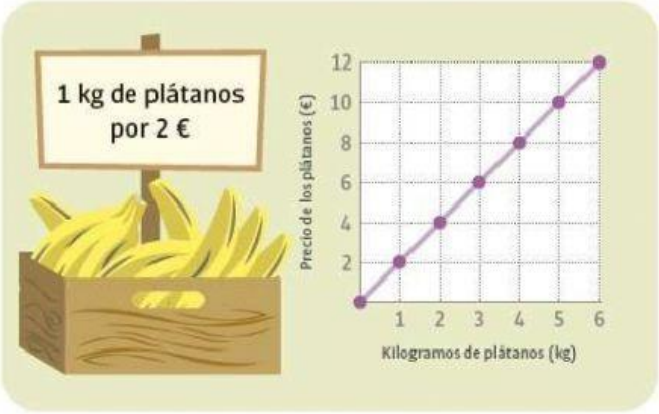

¿Qué cuestan 3 kilogramos de plátanos?

¿Cuántos kilogramos de plátanos puedes comprar con 8 €?

LIVEWORKSHEETS