PAS TEMA 2

SERIMPI CLASS



SDN
ANGKE 03
PAGI

RABU,
1 DESEMBER
2021

LIVEWORKSHEETS

E – LKPD

ELECTRONIC– LEMBAR KERJA PESERTA DIDIK

PENILAIAN AKHIR SEMESTER GANJIL TA 2021–2022

BERBASIS HOTs

(HIGHER ORDER THINKING SKILL)

SERIMPI *CLASS*

SDN ANGKE 03 PAGI

NAMA: _____

NO ABSEN: _____

LIVEWORKSHEETS

Petunjuk Pengisian E-LKPD

1. Tuliskan identitas kalian pada kotak disediakan!
2. Kerjakan setiap kegiatan yang ada pada LKPD ini.
3. Bacalah setiap petunjuk kegiatan dengan teliti sebelum mengerjakan.
4. Berdoalah sebelum mengerjakan.
5. Jika E-LKPD sudah dikerjakan semua, klik finish.
6. Setelah klik finish, maka akan muncul gambar berikut

7. Pada kotak Enter your full name, tuliskan nama lengkap kalian.

   a. Pada kotak Group/level, isi dengan angka 1

   b. Pada kotak School subject, tuliskan SDN ANGKE 03 PAGI.

LIVEWORKSHEETS

I. MATEMATIKA KD. 3.3 – 3.4

1. 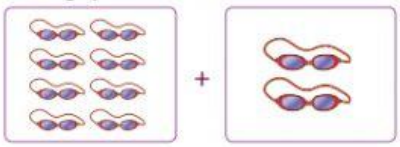 dayu senang mengumpulkan kaca mata renang sejak dari TK. Kalimat matematika yang tepat untuk menghitung banyak kacamata dayu adalah … .

   a. 6 + 2 = 8

   b. 6 + 2 = 10

   c. 8 + 2 = 10

2. Hari ini adalah pelajaran olahraga. Udin diminta pa guru menyiapkan kok untuk berlatih bulu tangkis. Banyak kok yang disiapkan udin sesuai gambar adalah … .

   a. 3 kok b. 6 kok c. 9 kok

3. Dayu memiliki 10 buah kacamata renang. Lani memiliki 9 buah kacamata renang. Jumlah kacamata renang dayu dan lani adalah… .

   a. Ada 10 dan 9 kacamata = 10 + 9 = 19 kacamata
   Jadi banyak kacamata dayu dan lani adalah 9 kacatamata

   b. Ada 10 dan 9 kacamata = 10 + 9 = 19 kacamata
   Jadi banyak kacamata dayu dan lani adalah 10 kacatamata

LIVEWORKSHEETS

c.

Ada 10 dan 9 kacamata = 10 + 9 = 19 kacamata

Jadi banyak kacamata dayu dan lani adalah 19 kacatamata

4.

kalimat matematika yang tepat sesuai dengan gambar adalah … .

a. 5 + 2 = 7

b. 5 - 2 = 7

c. 5 - 2 = 3

5.

kakak memiliki 11 buah pensil. 4 pensil kakak berikan kepada adik. Jumlah pensil kakak sekarang adalah… .

a.

11 + 4 = 15 Pensil

Jadi pensil kakak sekarang ada 15 pensil

b.

11 - 4 = 15 Pensil

Jadi pensil kakak sekarang ada 15 pensil

LIVEWORKSHEETS

c. 11 + 4 = 7 Pensil

Jadi pensil kakak sekarang ada 7 pensil

6. Benda benda disekolah memiliki banyak bentuk.

   Ada yang berbentuk bola

   Ada yang berbentuk tabung

   Ada juga yang berbentuk kubus ataupun balok.

   Gambar berikut yang memiliki bentuk kubus adalah … .

   a.

   b.

   c.

7. Salah satu benda disekolah yang memiliki bentuk seperti bola

   adalah … .

   a.

   b.

   c.

8. 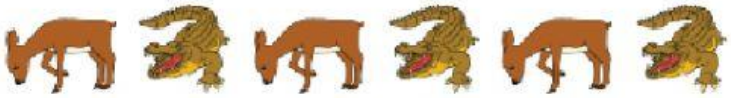 … …

   perhatikan gambar. Pola gambar selanjutnya adalah … .

   a.

   b.

   c.

LIVEWORKSHEETS

9. pola gambar selanjutnya adalah …

a.

b.

c.

10.



Hitunglah benda berikut, sesuai dengan polanya.

Pola bilangan yang tepat adalah … .

a. 2-2-2 b. 3-3-3 c. 2-3-2

LIVEWORKSHEETS

II. SBDP KD. 3.1

1. Dalam keseharian kita, tidak terlepas dari warna warna.

   Perpaduan warna warna berikut yang menghasilkan warna orange adalah … .

   a.

   b.

   c.

2. Warna warna berikut yang termasuk ke dalam warna dasar adalah … .

   a. Merah hijau coklat
   b. Merah kuning biru
   c. Merah kuning hijau

3. alat mewarnai yang dapat kita gunakan untuk menghasilkan karya pada gambar adalah… .

   a. Crayon b. pensil warna c. cat air

LIVEWORKSHEETS

4. Siti sedang membuat gambar. Gambar yang dibuat dari sobekan sobekan kertas origami. Gambar yang dibuat siti disebut … .

   a. Kolase b. meronce c. jumputan

5. Gambar berikut yang tidak termasuk karya kolase adalah … .

   a. b. c.

LIVEWORKSHEETS