NÓNG, LẠNH VÀ NHIỆT ĐỘ

Câu 1: Ghi số chỉ nhiệt độ hiển thị trên mỗi nhiệt kế tương ứng sau:

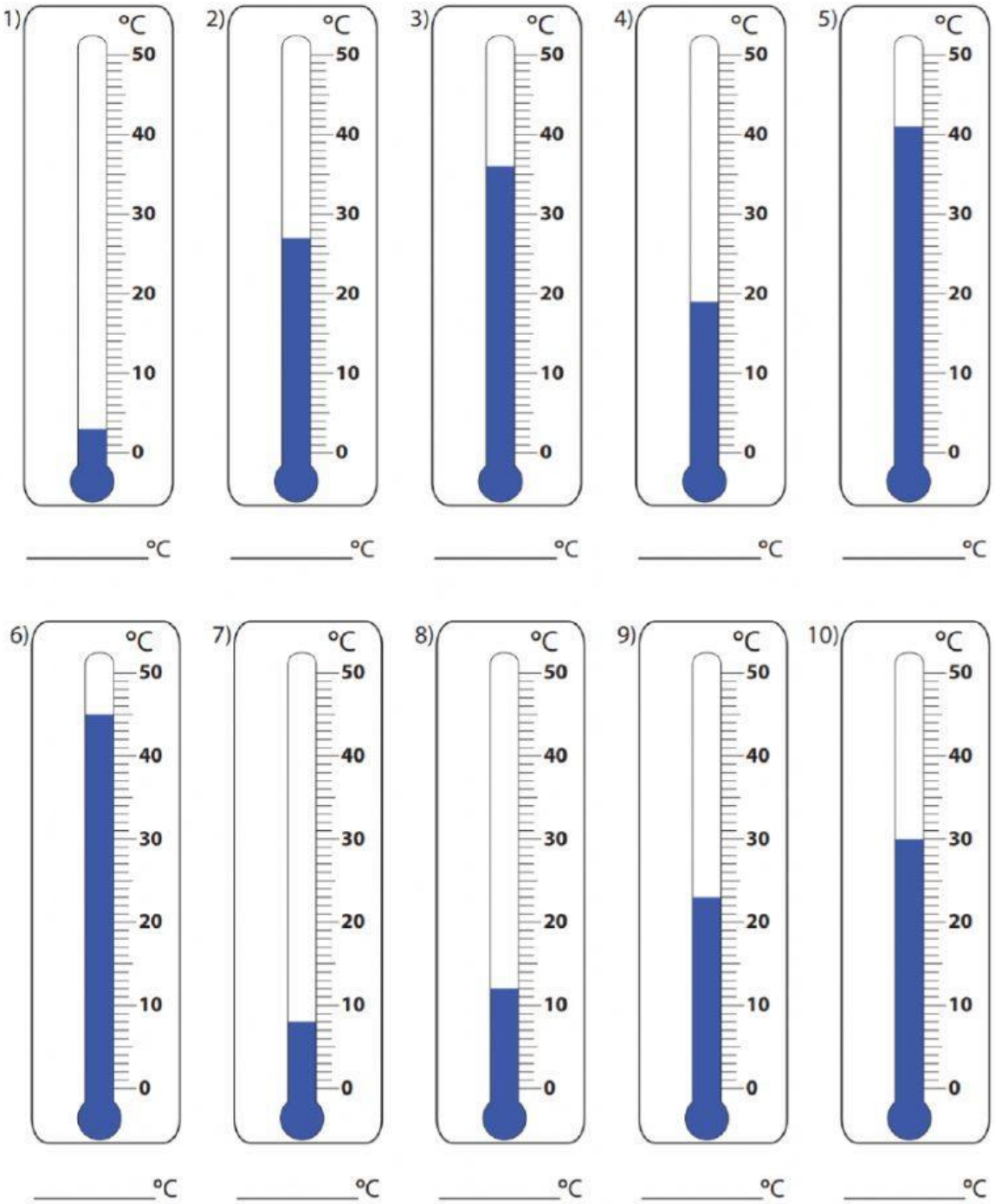

LIVEWORKSHEETS

Câu 2: Ghi số chỉ nhiệt độ hiển thị trên mỗi nhiệt kế (cả độ C và độ F)



°C	**°C**	**°C**	**°C**	**°C**
°F	**°F**	**°F**	**°F**	**°F**

Câu 3: So sánh nhiệt độ hiển thị ở nhiệt kế A và B trong các trường hợp sau:

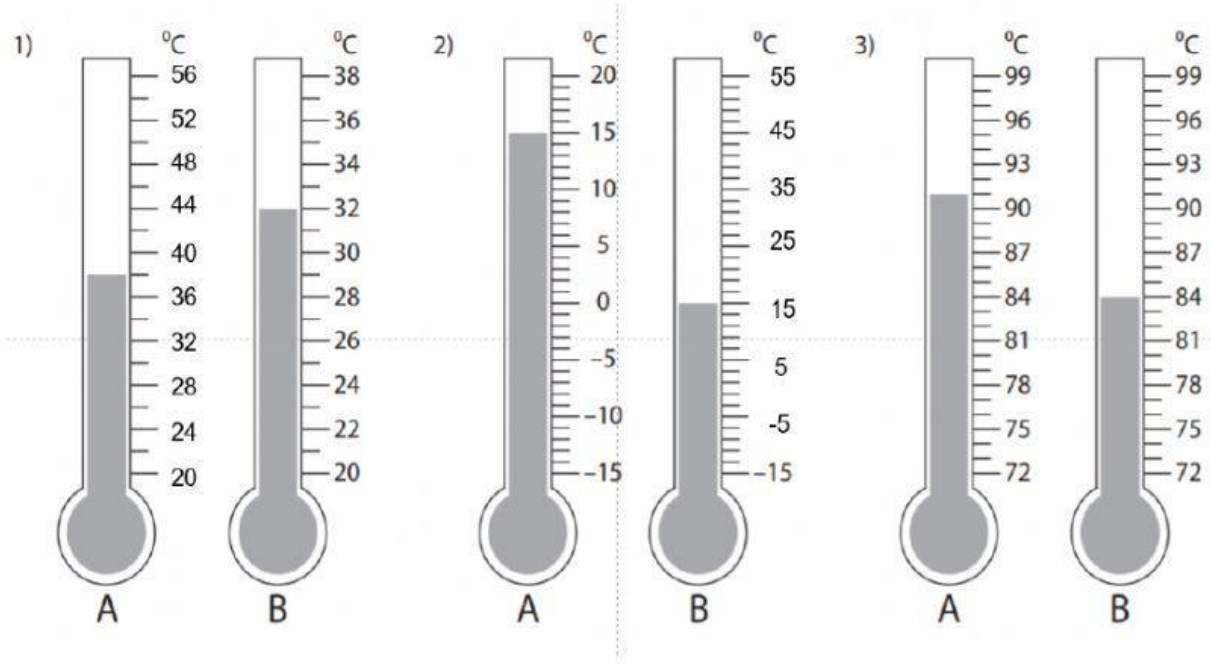

LIVEWORKSHEETS

1. Nhiệt kế A hiển thị nhiệt độ cao hơn/ thấp hơn/ bằng nhiệt kế B.
2. Nhiệt kế A hiển thị nhiệt độ cao hơn/ thấp hơn/ bằng nhiệt kế B.
3. Nhiệt kế A hiển thị nhiệt độ cao hơn/ thấp hơn/ bằng nhiệt kế B.

LIVEWORKSHEETS