Con tên là.....

KIỂM TRA

Bài 1: Số?



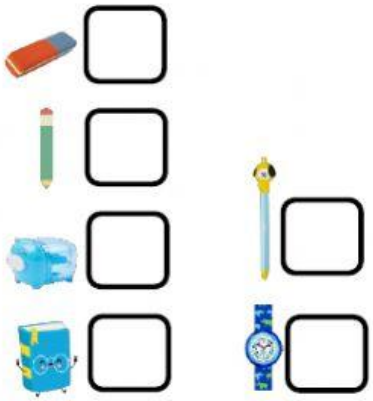

Bài 2: Chọn đáp án đúng

a. Hộp quà có dạng hình khối gì?

Hình vuông

Khối lập phương

Khối hộp chữ nhật

b. Trong ba số: **0, 10, 7**

Số nào lớn nhất?

Số nào bé nhất?

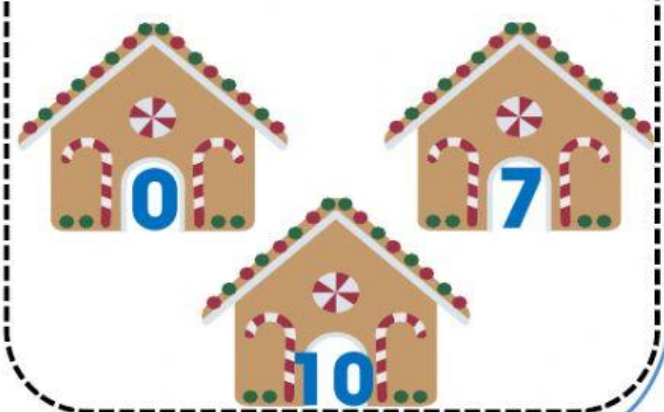

LIVEWORKSHEETS

Bài 3: >, <, =?

Bài 4: Nối

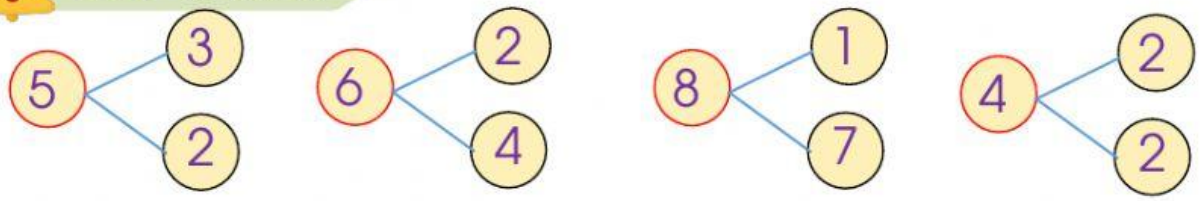

Bài 5: Viết số thích hợp

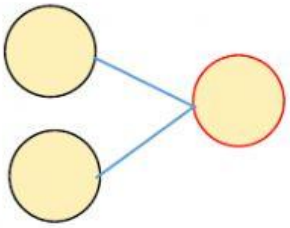

Có :..... con chó

thêm :.....con chó

Có tất cả:..... con.

Bài 6: Chọn đáp án đúng

LIVEWORKSHEETS