UNIDAD 11

EVALUACIÓN

Nombre:..... *Fecha:*..... *Curso:* .....

1.-Calcula el área de estas figuras teniendo en cuenta que cada cuadrado equivale a un m^2 de superficie.

A.



m^2

B.

m^2

C.

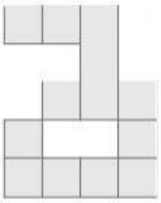

m^2

D.



m^2

E.

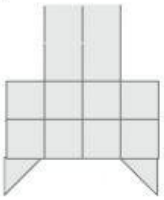

m^2

2.- Pasa a metros cuadrados las siguientes cantidades.

32 dam2 =	m2	458,56 dm2 =	m2
0,008 km2 =	m2	3,2 dam2=	m2
426000 dm2 =	m2	168cm2 =	m2
1,6 hm2 =	m2	10005584 mm2 =	m2

3.- Calcula el área de las siguientes figuras:

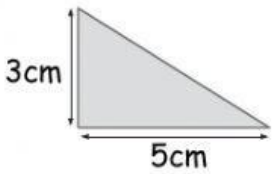

El área es: cm2

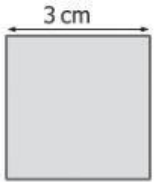

El área es: cm2

4.- ¿Cuál es el área de un triángulo de 7 dm de base y 42 cm de altura? Exprésala en decímetros cuadrados y en centímetros cuadrados.

El área del triángulo en decímetros cuadrados es:

El área del triángulo en centímetros cuadrados es:

LIVEWORKSHEETS

5.-Calcula el área de las siguiente figura:

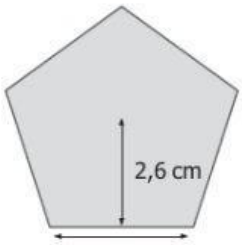

El área de la figura es: cm2

6.- **Antonio ha comprado una alfombra rectangular de 15 m de largo por 12 m de ancho. Si el metro cuadrado de alfombra cuesta 5,3 €, ¿cuánto ha pagado por la pieza?**

Ha pagado: euros.

7.-Calcula el área de este círculo de 6m de radio.

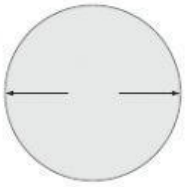

El área del círculo es de: m2

8.-Calcula el área de un rectángulo de 8 dm de base y 1.8 dm de altura:

Su área es: dm2

9.-Calcula las siguientes operaciones:

a) 453,52 - 63=

b) 897,854 + 489=

10. Calcula las siguientes operaciones:

a) 458,25 x 78=

b) 9885,987 / 32=

Resto=

LIVEWORKSHEETS

LIVEWORKSHEETS