KUIS KD 3.4. PERMINTAAN, PENAWARAN DAN STRUKTUR PASAR

NAMA :

KELAS :

1. Pada saat harga sebuah lampu Rp15.000,00, permintaan terhadap lampu tersebut adalah 4.000, dan setiap kenaikan harga Rp1.000,00 permintaan turun 500 untuk setiap lampu. Dari data tersebut, maka fungsi permintaannya adalah ….
   A. Q = -½P + 11.500
   B. Q = 5P + 11.500
   C. Q = 11.500 + ½P
   D. Q = -5P + 11.500
   E. Q = -11.500 + ½ P

2. Berdasarkan hukum permintaan, apabila harga bensin naik, maka permintaan terhadap kendaraan bermotor cenderung ….
   A. Naik
   B. berubah-ubah
   C. tidak bisa diperkirakan
   D. turun
   E. tetap

3. Pada saat harga Rp2,00, jumlah barang yang ditawarkan 5 unit dan pada saat harga Rp3,00 jumlah barang yang ditawarkan 8 unit. Fungsi penawarannya adalah ….
   A. Q = 3P -1
   B. Q = -3P +1
   C. Q = -3P +2
   D. Q = 3P +4
   E. Q = 3P +6

4. Jika fungsi permintaan adalah Qd = 250 - 0,5 P, sedangkan harga barang adalah Rp 150,00 per unit, maka jumlah barang yang diminta adalah...
   A. 75 unit
   B. 100 unit
   C. 150 unit
   D. 175 unit
   E. 200 unit

LIVEWORKSHEETS

KUIS KD 3.4. PERMINTAAN, PENAWARAN DAN STRUKTUR PASAR

5. Permintaan dari konsumen yang tidak disertai dengan kemampuan membayar atau membeli disebut....

A. permintaan individu
B. permintaan kolektif
C. permintaan potensial
D. permintaan efektif
E. permintaan absolut

6. Pernyataan yang benar tentang hukum permintaan adalah ….

A. kenaikan harga mengakibatkan turunnya jumlah barang yang diminta
B. kenaikan harga mengakibatkan bertambahnya jumlah barang yang diminta
C. turunnya harga mengakibatkan bertambahnya jumlah barang yang ditawarkan
D. turunnya harga mengakibatkan berkurangnya jumlah barang yang diminta
E. kenaikan harga mengakibatkan adanya excess demand

7. Berdasarkan hukum penawaran, apabila harga cabe naik maka maka jumlah cabe yang ditawarkan akan....

A. Naik
B. Turun
C. Stabil
D. Berubah-ubah
E. Tidak dapat diperkiraan

8. Para pedagang akan menawarkan ayam sebanyak 100 ekor apabila harganya Rp 200.000,00 per ekor. Harga sebelumnya Rp 150.000,00 per ekor dengan jumlah ayam yang ditawarkan sebanyak 75 ekor. Jenis koefisien elastisitas penawaran adalah...

A. elastis
B. inelastis
C. elastis sempurna
D. inelastis sempurna
E. Uniter

LIVEWORKSHEETS

9. Pada harga Rp 200, jumlah barang yang diminta 200 unit, sedangkan jika harga naik menjadi Rp 240 jumlah barang yang diminta 180 unit. Koefisien elastisitas permintaanya adalah....

   A. Ed > 1
   B. Ed < 1
   C. Ed = 1
   D. Ed = 0
   E. Ed =~

10. Pada saat harga barang Rp 150, permintaan atas barang tersebut adalah 30. Ketika harga barang naik menjadi Rp 200, jumlah permintaan tetap 30. Maka elastisitasnya adalah...

   A. 1,6
   B. ~
   C. 0,3
   D. 0
   E. 1

LIVEWORKSHEETS

KUIS KD 3.4. PERMINTAAN, PENAWARAN DAN STRUKTUR PASAR

11. "Semakin turun tingkat harga, maka semakin banyak jumlah barang yang tersedia diminta, dan sebaliknya semakin naik tingkat harga semakin sedikit jumlah barang yang bersedia diminta."

12. keseluruhan jumlah barang atau jasa yang bersedia diminta pada berbagai tingkat harga, waktu, dan tempat tertentu.

13. semakin tinggi harga, semakin banyak pula jumlah barang yang ditawarkan. Sebaliknya, semakin rendah harga barang, jumlah yang ditawarkan juga akan semakin sedikit.

14. banyaknya barang atau jasa yang tersedia dan dapat ditawarkan oleh produsen kepada konsumen pada setiap tingkat harga selama periode waktu tertentu.

15. Dian, Ambar, dan Hani pergi ke pasar malam. Di pasar malam ini banyak penjual menjajakan barang-barang yang mereka minati.Dian membawa uang Rp5.000,00 dan ingin membeli pita rambut, ternyata harganya Rp10.000,00.

16. Ambar membawa uang Rp20.000,00 dan membeli bando seharga Rp5.000,00.

17. Hani membawa uang Rp50.000,00 tetapi tidak ada barang yang menarik hatinya.

- Penawaran
- Permintaan Efektif
- Permintaan
- Permintaan Potensial
- Hukum Penawaran
- Hukum Permintaan
- Permintaan Absolut

LIVEWORKSHEETS

KUIS KD 3.4. PERMINTAAN, PENAWARAN DAN STRUKTUR PASAR

Jenis-jenis Kurva Elastisitas Permintaan

18

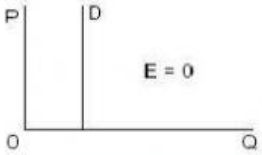

19

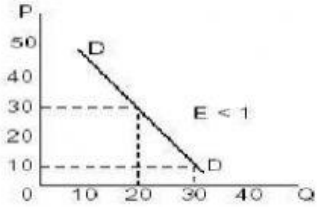

20

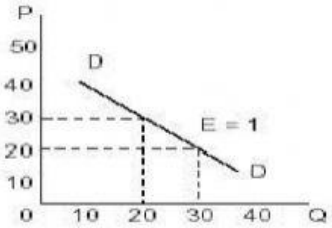

21

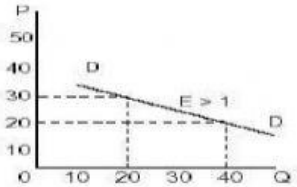

22

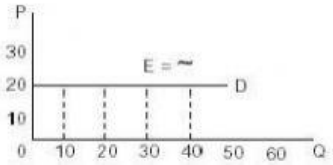

Elastis

Inelastis

Uniter

Elastis sempurna

In elastis sempurna

LIVEWORKSHEETS

KUIS KD 3.4. PERMINTAAN, PENAWARAN DAN STRUKTUR PASAR

23. Faktor-faktor yang mempengaruhi permintaan

24. Meskipun harga beras naik, orang akan tetap membutuhkan beras sebagai makanan pokok. Karenanya, meskipun mungkin dapat dihemat penggunaannya namun tidak akan sebesar kenaikan harga yang terjadi. Sebaliknya pula, jika harga beras turun konsumen tidak akan menambah konsumsinya sebesar penurunan harga. Karakteristik produk yang seperti ini mengakibatkan permintaan menjadi

25.



LIVEWORKSHEETS

KUIS KD 3.4. PERMINTAAN, PENAWARAN DAN STRUKTUR PASAR

LIVEWORKSHEETS