1 哪项是正确的?

A $3.93\ \ell = 3\ 903\ m\ell$

B $7.06\ \ell = 7\ 060\ m\ell$

C $7\frac{2}{8}\ \ell = 7\ 150\ m\ell$

D $3\frac{1}{5}\ \ell = 3\ 020\ m\ell$

2 写出三百七十六令吉五十七仙的令吉近似值。

A RM400

B RM380

C RM376

D RM377

3 数字 8 在 5.089 的数位是

A 个位

B 十分位

C 千分位

D 百分位

4 把 $3\frac{2}{5}$ 化为百分比。

A 113%

B 300%

C 340%

D 240%

5 1936 时的 45 分钟之后是

A 8: 21 p.m.

B 7: 51 p.m.

C 8: 51 p.m.

D 7: 21 p.m.

6 哪项换算是正确的?

A 7080 g = 7.8 kg

B 502 g = 0.502 kg

C 32 kg 50 g = 32 500 g

D $3\frac{1}{5}$ kg = 3 150 kg

7 5.763 =

A $5 + \frac{7}{1\ 000} + \frac{6}{100} + \frac{3}{10}$

B $5 + \frac{7}{100} + \frac{6}{1\ 000} + \frac{3}{10}$

C $5 + \frac{7}{10} + \frac{6}{1\ 000} + \frac{3}{100}$

D $5 + \frac{7}{10} + \frac{6}{100} + \frac{3}{1\ 000}$

8 哪项的和数是 $7\frac{3}{10}$?

A $2\frac{1}{5} + 5\frac{1}{10}$

B $3\frac{1}{2} + 4\frac{4}{5}$

C $6\frac{2}{5} + 2\frac{1}{2}$

D $4\frac{1}{5} + 3\frac{1}{2}$

Scanned with CamScanner
LIVEWORKSHEETS

9 16 小时 − 7 小时 25 分钟 =

A 9 小时 25 分钟

B 9 小时 35 分钟

C 8 小时 45 分钟

D 8 小时 35 分钟

10 28 × (379 + 5 248) =

A 158 564

B 157 556

C 157 565

D 162 596

11 $2\frac{2}{5}$ 百万 ÷ 48 =

A 50 000

B 2400 000

C 500 000

D 240 000

12 表 1 显示 4 个学生的质量。

学生	质量
丽娜	42 kg
美娜	比丽娜多 $1\frac{1}{5}$ kg
美芳	比文芳轻
文芳	比丽娜少 5.8 kg

表 1

谁最重?

A 丽娜

B 美娜

C 美芳

D 文芳

13 文强有 9 个罐子。每个罐子有 25 粒糖果。他把 53 粒糖果给了朋友。
哪项显示文强的糖果总数的算式?

A (25 + 53) × 9

B (53 − 25) × 9

C 9 × 25 − 53

D 9 × 25 + 53

14 图 1 是两个大小相同的正方形。每个正方形各别分成几个相等的部分。

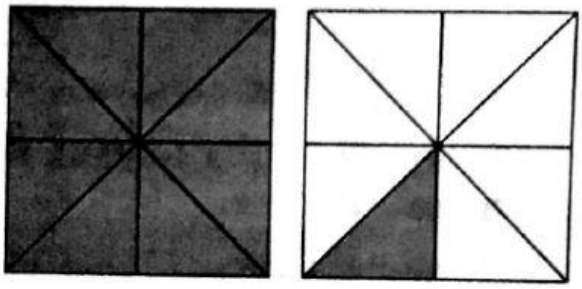

图 1

计算这两个正方形里涂黑部分的百分比总和。

A 75%

B 152%

C 125%

D 120%

15 8.2% × 3 600 =

A 295.2

B 2 952

C 295 200

D 2952 000

Scanned with CamScanner
LIVEWORKSHEETS

16 下面是林老师与一名同学的对话。

俊杰买了固本后，明华小学还剩多少本固本？

A 25 458　　C 25 446

B 25 485　　D 25 464

17 $2\frac{2}{4}$ 天 + $\frac{1}{6}$ 小时 =

A 60 小时 2 分钟

B 60 小时 6 分钟

C 60 小时 4 分钟

D 60 小时 10 分钟

18 $7\frac{1}{8}\ \ell + \square = 9\ \ell\ 605\ m\ell$

A 2.48 ℓ

B 2.84 ℓ

C 1.48 ℓ

D 1.84 ℓ

19 $4\frac{3}{8} \div \frac{2}{6} =$

A $1\frac{3}{32}$

B $1\frac{1}{3}$

C $13\frac{1}{8}$

D 12

20 图 2 显示一条不完整的数目线。

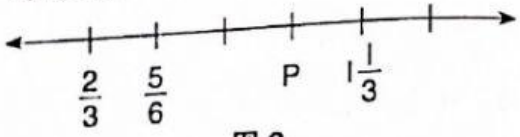

图 2

哪项是 P 的值？

A $1\frac{1}{6}$

B $1\frac{2}{3}$

C 1

D $\frac{1}{6}$

21 表 2 显示三个村子的居民人数。村子 P 的居民人数没有显示出来。

村子	居民人数
P	
Q	17 529
R	25 638

表 2

P 村子的居民人数比比 R 村子的少 18 352 人。

计算这三个村子的居民人数。

A 24 815

B 61 519

C 50 453

D 60 453

22 一家工厂生产了 89 405 包米。其中 42 959 包卖给了某霸级市场。这家工厂还剩多少包米？

A 44 466

B 44 646

C 46 464

D 46 446

Scanned with CamScanner
LIVEWORKSHEETS

23 表 3 显示四个月的电费。

月份	数额
一月	比二月份多付 RM26.90
二月	RM189.55
三月	RM254.70
四月	比三月份少付 RM15

表 3

计算四个月份的电费总额。

A RM710.85　　C RM915.40

B RM700.40　　D RM900.40

24 表 4 显示三辆玩具车行驶距离的记录。

玩具车	行驶距离
X	5.18 m
Y	比 X 远 2.3 m
Z	比 Y 近 0.9 m

表 4

以 m 为单位，Z 玩具车的行驶距离是多少？

A 6.58　　C 8.38

B 3.78　　D 1.98

25 表 5 显示佩丽购买物品的收据。

美美文具店				
序	物品	数量	单价	银额
1	记事本	2	RM 8.75	RM17.50
2	书包	1	RM25.90	RM25.90
3	单线簿	6	RM 0.80	RM 4.80
总计				RM48.20

表 5

佩丽有两张 RM50。

佩丽再购买 5 本单线簿和 1 本记事本。

计算佩丽所剩下的钱。

A RM1.25

B RM87.25

C RM3.05

D RM39.05

26 一瓶食油的体积是 0.8 ℓ。某商店买进 25 瓶。

以 ℓ 为单位，这 25 瓶食油的总体积是多少？

A 20 ℓ　　C 25 ℓ

B 200 ℓ　　D 250 ℓ

27 图 3 显示一包鱼柳，每包鱼柳有 18 片。

图 3

某小贩在一天内卖出了 102 包鱼柳。

哪项是小贩卖出的鱼柳数量的正确算式？

A
```
   102
×   18
   806
  102
```

B
```
   102
×   18
   806
  112
```

C

1	0	2	
0/1	0/0	0/2	1
0/8	0/0	0/6	8

D

1	0	2	
0/1	0/0	2/2	1
8/0	0/1	1/6	8

Scanned with CamScanner
LIVEWORKSHEETS

28 以下显示某小贩售卖的鲜鱼数量。鲑鱼的数量没有显示出来。

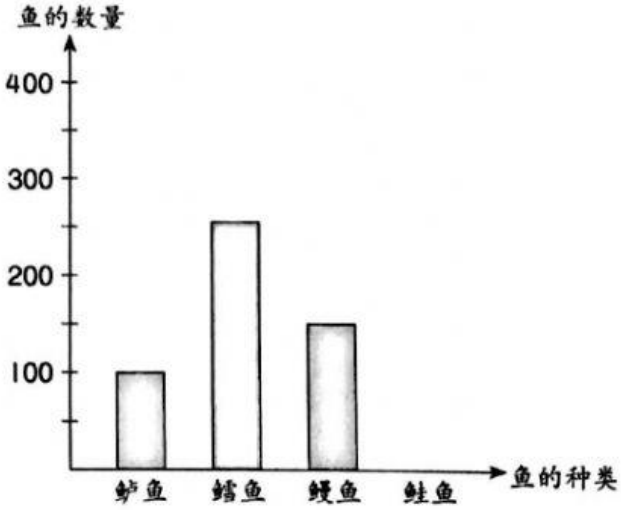

鲑鱼的数量比鳗鱼多 85 只。
计算这四种鱼类的总数。

A 885　　C 835

B 585　　D 735

29 表 6 显示四样物品的价格。

物品	价格
衣服	RM189.60
鞋子	RM125.60
手提包	RM139.40
项链	RM173.20

表 6

根据表 6，玮雯买了其中三样最贵的物品。
她须付多少钱?

A RM502.20　　C RM488.40

B RM522.20　　D RM438.20

Scanned with CamScanner
LIVEWORKSHEETS

30 表 7 显示慧珊温习功课的时间。

科目	时间
数学	$\frac{3}{4}$ 小时
英文	1 小时 20 分钟
科学	1.6 小时

表 7

慧珊共用了多少时间来温习以上 3 个科目？

A 3 小时 41 分钟

B 3 小时 11 分钟

C 3 小时 21 分钟

D 4 小时 5 分钟

Scanned with CamScanner
LIVEWORKSHEETS